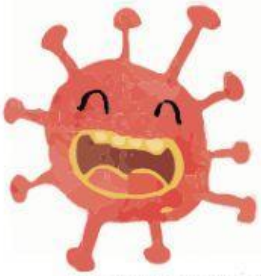

# CoronaEXAM

## Acaba con él, completando bien esta prueba

Haz las cuentas en un cuaderno y luego pon el resultado en el **recuadro.**

**¡Ojo con esa calculadora!** (que el corona está en todas las partes y te vigila.... je je je)

**Completa las tablas de proporcionalidad.**

| × | 1 | 2 | 4 | 5 | 7 | 9 | : |
|---|---|---|---|---|---|---|---|
| | 7 | | | | | | |

| × | 3 | | 8 | 9 | 10 | 15 | : |
|---|---|---|---|---|---|---|---|
| | | 45 | 72 | | | | |

**Completa la tabla de proporcionalidad y contesta.**

Roberto ha comprado 4 sillas por 200 € y 2 mesas por 250 €.
¿Cuánto le costaría comprar 6 sillas y 1 mesa? ¿Y 12 sillas y 3 mesas?

| N.º de sillas | 1 | 4 | 5 | 6 | 9 | 12 |
|---|---|---|---|---|---|---|
| Precio | | | | | | |

| N.º de mesas | 1 | 2 | 3 | 4 | 6 | 8 |
|---|---|---|---|---|---|---|
| Precio | | | | | | |

## Relaciona estas tres columnas:

| | | |
|---|---|---|
| 83 % | 6 por ciento | 21 de cada 100 |
| 54 % | 17 por ciento | 83 de cada 100 |
| 6 % | 54 por ciento | 17 de cada 100 |
| 21% | 83 por ciento | 6 de cada 100 |
| 17 % | 21 por ciento | 54 de cada 100 |

**Calcula los siguientes porcentajes.**

| El 4 % de 225 | El 75 % de 320 | El 64 % de 75 |
|---|---|---|
| | | |

**Completa la tabla.**

| Lectura | 35 por ciento | | | |
|---|---|---|---|---|
| Porcentaje | | 22 % | | |
| Fracción | | | $\frac{65}{100}$ | |
| Número decimal | | | | 0,58 |

LIVEWORKSHEETS

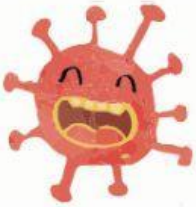

# CoronaEXAM

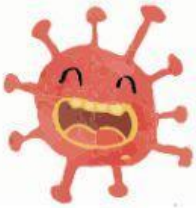

Los problemas no se autocorrigen, la nota que te salga no es la real.
Poneis como lo haberis

**Ramón tiene 60 libros. El 15% de ellos son novelas de misterio y el 75% son novelas de aventuras. ¿Cuántas novelas de cada tipo tiene Ramón?**

**Ayer tenía 300 €. El 75% de este dinero lo gasté en un regalo para mi hermana y el 10% lo gasté en un cómic. ¿Qué tanto por ciento de los ahorros gasté en total? ¿Cuánto dinero me quedó?**

**Un televisor que costaba 900 € fue rebajado en enero un 20% y en febrero otro 20% del precio que tenía. La rebaja total, ¿fue mayor o menor de un 40%? ¿Cuántos euros?**

**Martina va a comprar una lavadora de 450 € y un secador de pelo de 40 €. Los artículos de precio superior a 325 € están rebajados un 20% y los de precio menor un 10%. ¿Cuánto le costará en total su compra?**

Inventate un problema de porcentajes y lo resuelves:

LIVEWORKSHEETS