Lembar Kerja Peserta Didik (LKPD) Digital
Matematika Kelas VI (Enam)

Nama Peserta Didik :

Kelas :

No. Absen :

Pengolahan Data (Median)

Bacalah materi pelajaran yang ada pada Presentasi PowerPoint berikut ini!

Jawablah pertanyaan-pertanyaan di bawah ini dengan jawaban tepat!

1. **Data berat badan siswa (dalam kg) adalah sebagai berikut :**

   45 39 40 41 47 38 43

   a. Urutkan data dari yang terkecil!

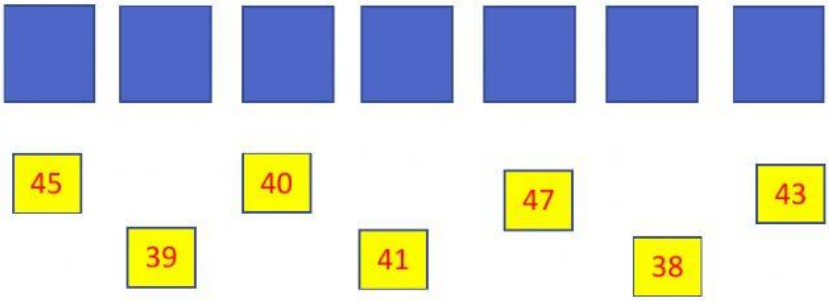

   b. Median dari data tersebut adalah .....

2. **Perhatikan tabel berikut!**

Nilai	Banyak Siswa
60	2
70	4
80	4
90	2
100	3

Median dari data tersebut adalah .....

3. **Perhatikan diagram batang berikut!**

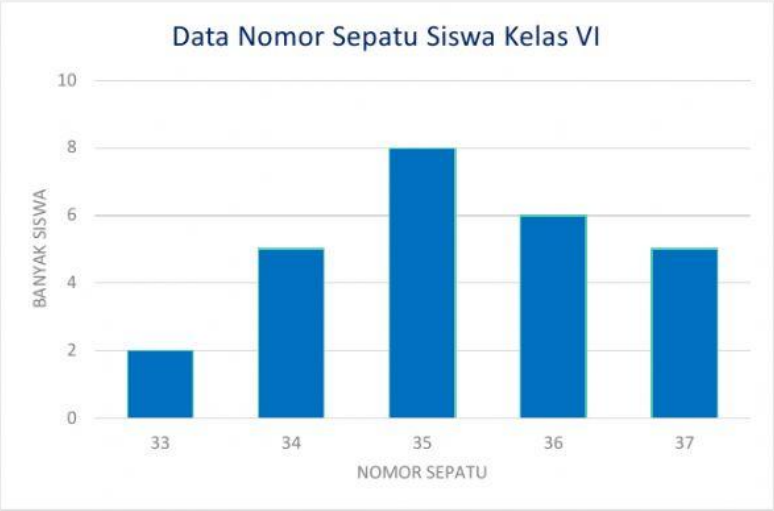

Median dari data tersebut adalah .....

4. **Perhatikan diagram garis berikut!**

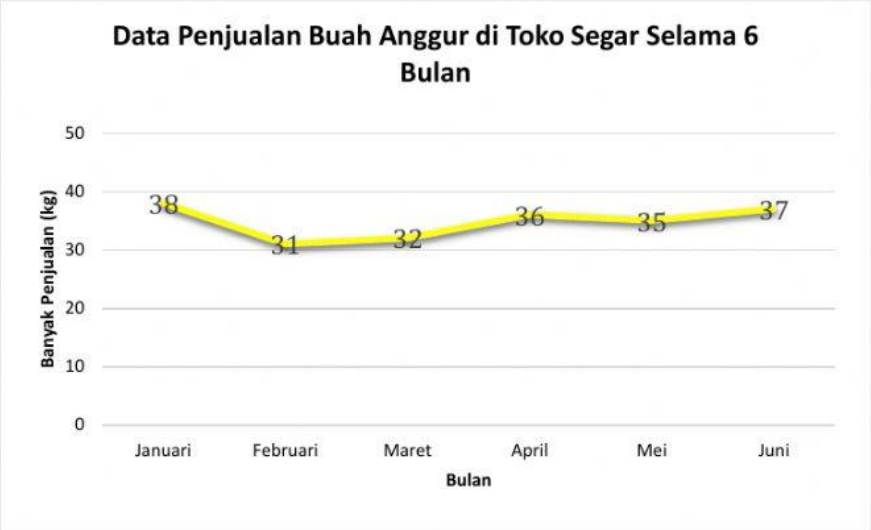

Median dari data tersebut adalah .....