4 Nivell Basic | Exàmen Febrer -Teoria- | 01/02/21

1. Troba la tonalitat Major d'aquestes armadures:



2. Analitza els següents intervals:



3. Analitza les següents escales:

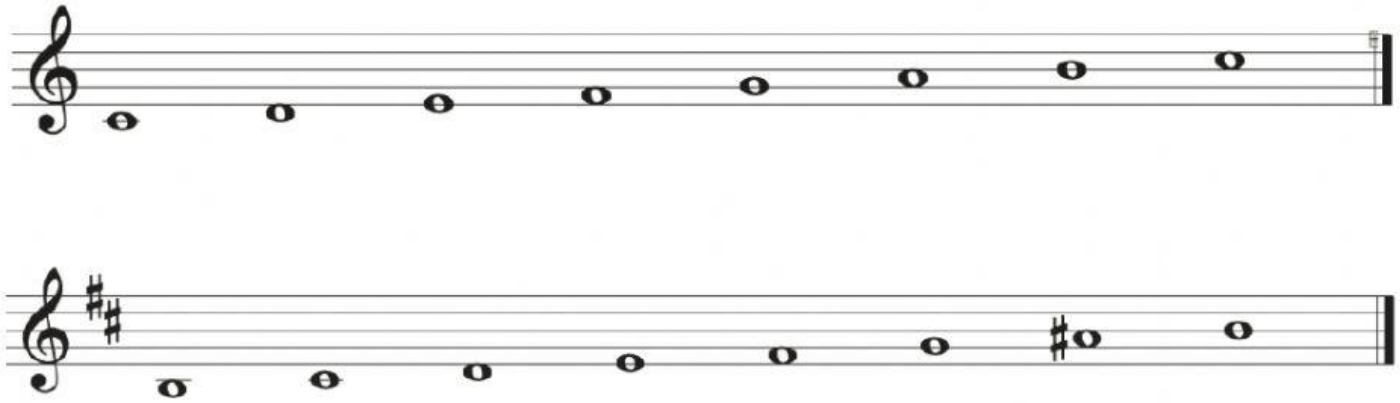

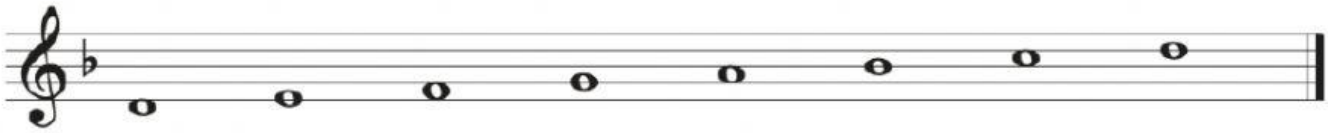



4. Fixa't en aquesta petita melodia i contesta les preguntes:



A) En quin to està escrita? _____

B) Amb quin grau de l'escala comença? _____

C) Amb quin grau de l'escala acaba? _____

D) Quants compassos té? _____

E) Quin àmbit abarca? _____

F) Quines indicacions dinàmiques apareixen? _____

G) Hi ha cap indicació d'agògica? Què significa? _____

H) On creus que hi ha el punt culminant? _____

I) Quin tipus de començament té? _____