ZIENTZIA, TEKNOLOGIA ETA OSASUNA VI

4. maila

I.6. PASIERAN

Beheko planoan fijatzen bazara Miren eta Jon ikusiko dituzue, etxe gorriaren ondoan. Zinemara joan nahi dute eta zein kaletatik joago diren pentsatzen ari dira. Badakite kale batzuetatik ezin dela pasatu sua, kamioiak, lanak… daudelako.

01 **Marraztu biderik laburrena zinemara heltzeko (erabili erantzuteko orria)**

02 **Bidean Jonek kaleak hostoz beteak daudela ikusten du. Zer urtaro da?**

A. Uda.

B. Negua.

C. Udazkena.

D. Udaberria.

03 **Jon bere lagunekin elkartu da eta zinean sartu baino lehen gozoki batzuk erosi dituzte. Behean elikagaiak taldekatuta ikus ditzakezu.**

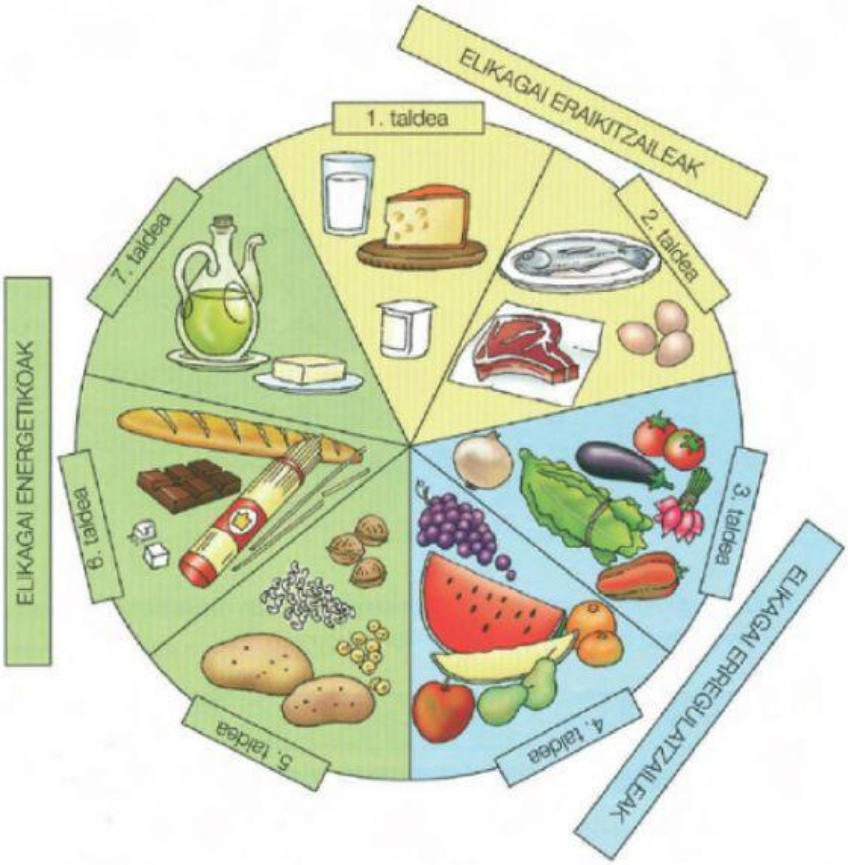

Gozokiak, zer taldetako elikagiak dira

A. 1. taldekoak.

B. 2. taldekoak.

C. 5. taldekoak.

D. 6. taldekoak.

04 **Zinetokietan, pelikulak emateko proiektoreak erabiltzen dira. Aparatu horiek tresna optikoak dira, argiarekin eta ikuspenarekin erlazionatuta daudelako**

.



Hurrengoen artean, zeintzuek dute ikusmenarekin zerikusia?

A. A, C, D eta E.

B. A, B, D eta F.

C. B, E, G eta C.

D. G, A, E eta C.

05 **Lagunek ikusi duten pelikula piratena da. Protagonistak altxorra ezkutatuta dagoen irlaren mapa aurkitu du. Arretaz beha ezazu.**

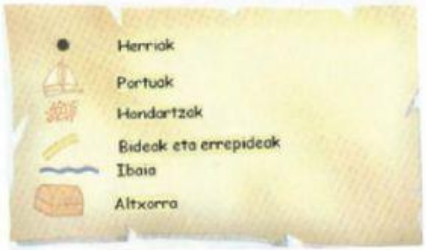

Maparen arabera, zein da egiazko esaldi bakarra?

A. Hegoaldean bi hondartza daude.

B. Bide luzeena iparraldetik hegoaldera doa.

C. Irlaren mendebaldean hondartza asko dago.

D. Altxorra irlaren hegoaldean ezkutatuta dago.