Nome: _____ Turma: _____

# Atividades de Multiplicação

Observe a quantidade de pregos usados nas cercas:

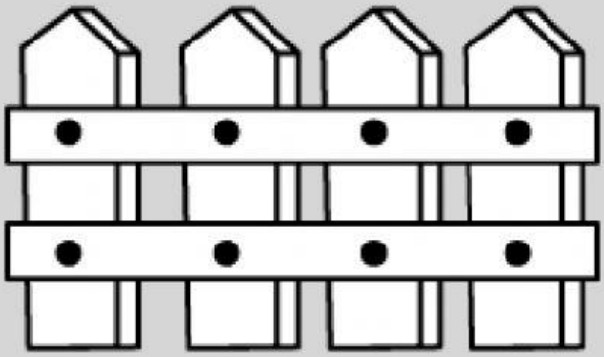

2 + 2 + 2 + 2 = 8

ou

4 x 2 = 8 (4 vezes o 2)

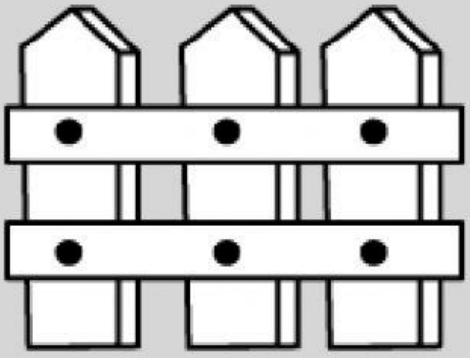

2 + 2 + 2 = 6

ou

3 x 2 = 6 (3 vezes o 2)

Agora escreva uma adição e uma multiplicação para indicar a quantidade de pregos usados nestas cercas:

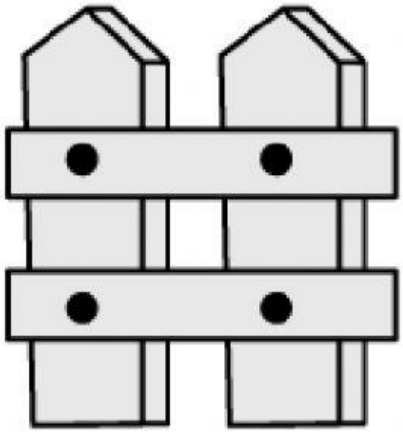

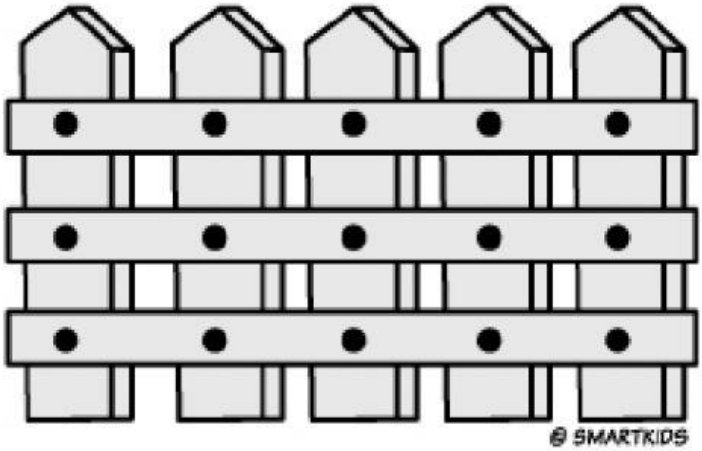

© SMARTKIDS

_____ _____

_____ _____

# Vamos ajudar o sapo a chegar na lagoa?

**Resolva as multiplicações e depois responda corretamente.**

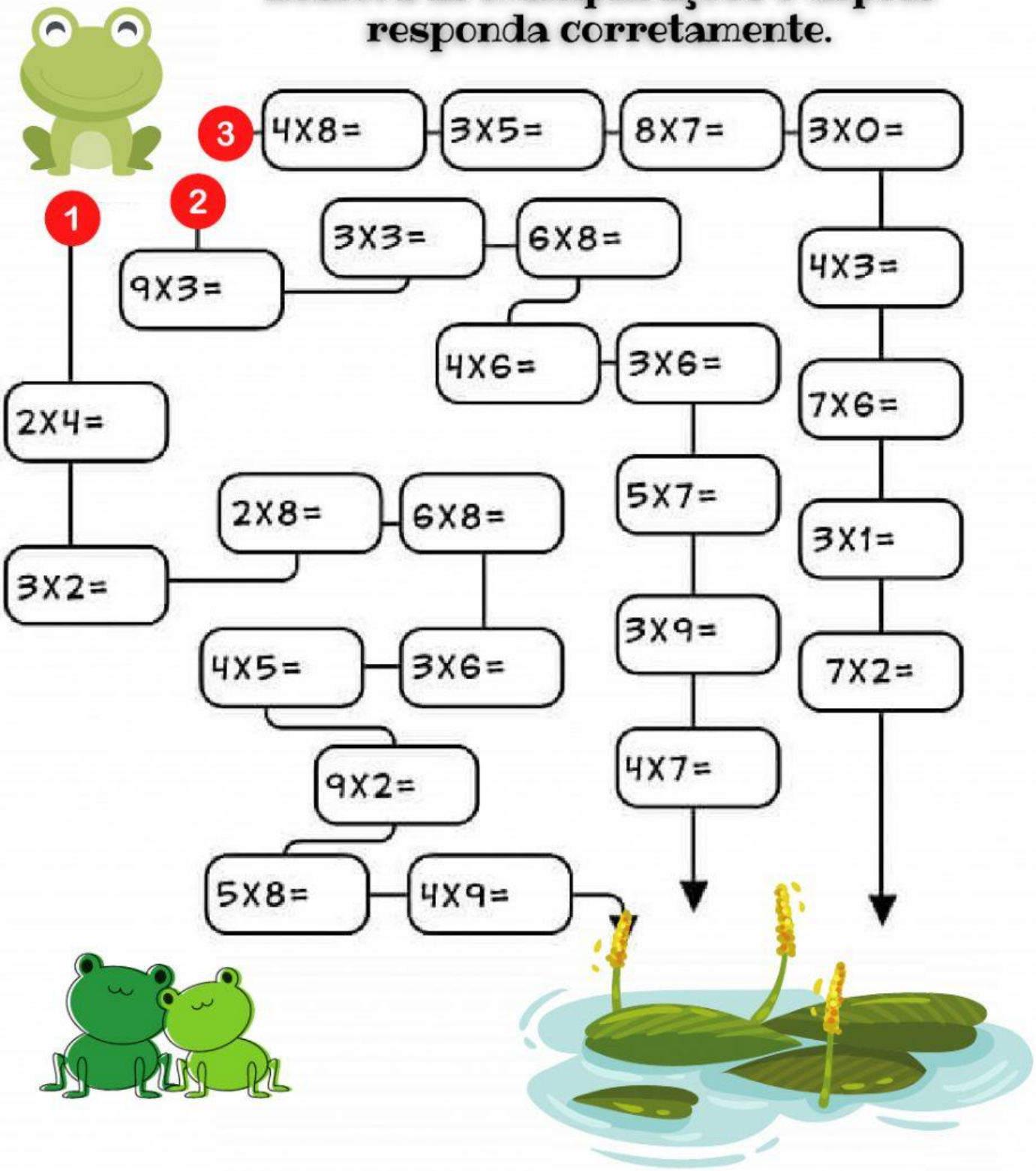


## Em qual dos caminhos todos os resultados são números pares?

**Caminho 1** **Caminho 2** **Caminho 3**

# Resolva as multiplicações com bastante atenção.

3 x 2 = ☐ 3 x 9 = ☐

4 x 5 = ☐ 7 x 8 = ☐

5 x 3 = ☐ 6 x 3 = ☐

7 x 2 = ☐ 7 x 4 = ☐

2 x 4 = ☐ 4 x 6 = ☐

# Complete as multiplicações com os números que estão faltando.

9 x ☐ = 27 ☐ x 2 = 18

☐ x 7 = 28 5 x ☐ = 50

5 x ☐ = 20 ☐ x 8 = 64

☐ x 4 = 12 6 x ☐ = 30

6 x ☐ = 36 ☐ x 9 = 54