11. unitatea> Euroak. Piktogramak

Ikaslea: _____ **Maila:** ___ **Data:** _____

1 **Marraztu honako etiketa hauetan agertzen den prezioa lortzeko behar dituzun txanponak eta billeteak.**

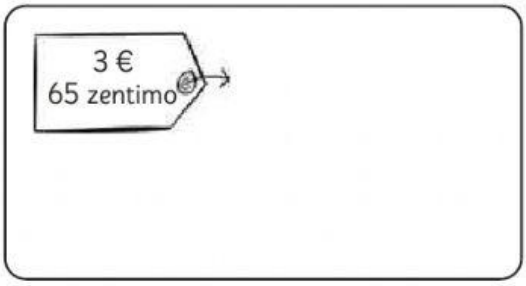

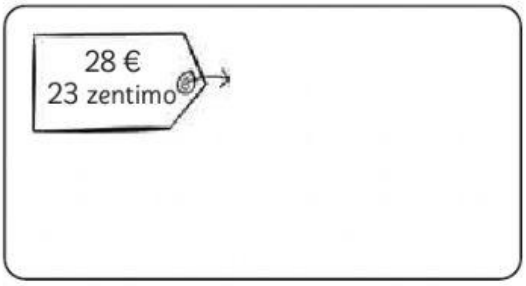

2 **Osatu honako esaldi hauek.**

- Euro bat _____ zentimo dira, 50 zentimoko ____txanpon edo 20 zentimoko ____ txanpon.
- 20 €-ko billete bat 10 €-ko ____ billete dira, eta 5 €-ko ____ billete.

3 **Adierazi honako kopuru hauek eurotan eta zentimotan.**

198 zentimo = ____ € ____ zentimo

373 zentimo = ____ € ____ zentimo

215 zentimo = ____ € ____ zentimo

450 zentimo = ____ € ____ zentimo

4 **Egin eurotan eta zentimotan adierazitako honako eragiketa hauek.**

12 € 48 cent	28 € 37 cent	45 € 97 cent	64 € 95 cent
+ 20 € 17 cent	+ 15 € 29 cent	– 22 € 26 cent	– 7 € 48 cent

5 **Piktograma honek familia batek iaz erabili zuen garraioa eta garraio hori zenbat aldiz erabili zuen agertzen digu.**

- Zenbat aldiz ibili ziren autoz? _____
- Zenbatetan ibili ziren hegazkinez? _____
- Zenbat aldiz ibili ziren trenez edo autobusez? ____



© IBAIZABAL/BAIMENDUTAKO MATERIAL FOTOKOPIAGARRIA

LIVEWORKSHEETS