ORIENTAZIOA

ERANTZUN:

-Zer dira puntu kardinalak?

_____

_____

_____

-Zein da aurrera adierazten duen puntu kardinala?_____

-Zein da eskuinera adierazten duen puntu kardinala?_____

-Zein da ezkerrera adierazten duen puntu kardinala?_____

-Zein da atzera adierazten duen puntu kardinala?_____

Kopiatu iparrorratz hauek eta osatu falta diren puntu kardinalak.

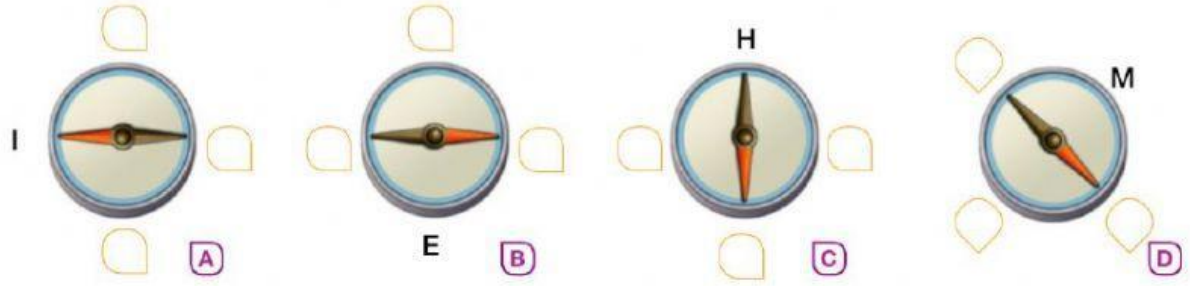

Erreparatu mapari eta erantzun.

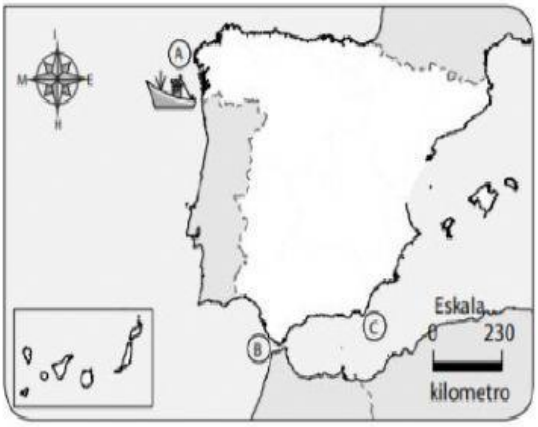

- Zer norabidetan nabigatu behar du itsasontziak A puntutik B puntura joateko?

_____

_____

- Eta B puntutik C puntura joateko?

_____

-Adierazi egingo zenukeen ibilbidea (puntu kardinalak erabili).

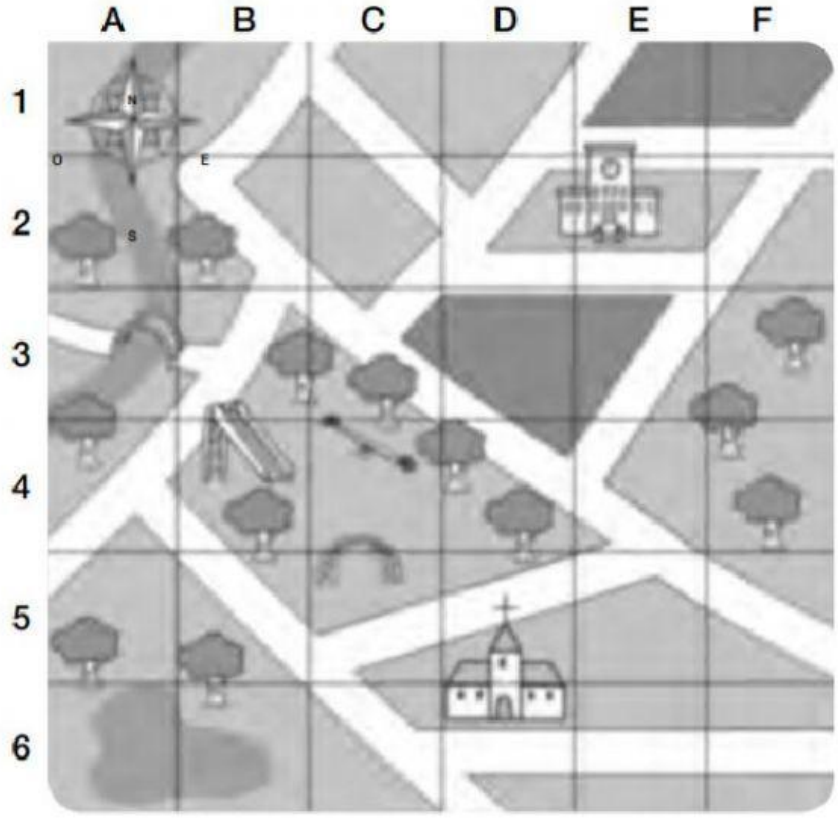

·Eskolatik zubira:

_____

_____

_____

·Elizatik eskolara:

_____

_____

_____

·Elizatik zubira:

_____

_____

_____