Lembar Kerja Siswa (LKS)

VOLUME KUBUS DAN BALOK

Rabu, 27 Januari 2021

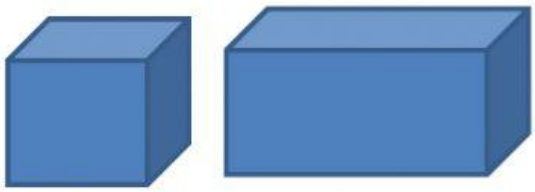

I. Isilah titik-titik dibawah ini dengan jawaban yang benar !

1. 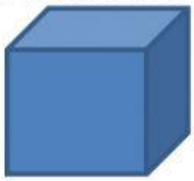

   Volume bangun disamping adalah .....

   15 cm

2. 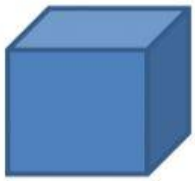

   Volume bangun disamping adalah .....

   27 cm

3.

   Volume bangun disamping adalah .....

   15 cm

   10 cm

   18 cm

4.

   Volume bangun disamping adalah .....

   20 cm

   17 cm

   35 cm

5. Sebuah akuarium memiliki ukuran panjang 50 cm, lebar 30 cm dan tinggi 15 cm. Volume akuarium tersebut adalah .....