Reforç

16 Comparació de fraccions amb la unitat

Nom _____ Data _____

Recorda

- Una fracció és igual a la unitat si el seu numerador i el seu denominador són iguals. Per exemple: $\frac{3}{3} = 1$
- Una fracció és menor que la unitat si el numerador és menor que el denominador. Per exemple: $\frac{3}{5} < 1$
- Una fracció és major que la unitat si el numerador és major que el denominador. Per exemple: $\frac{6}{3} > 1$

1. Escriu la fracció que representa la part pintada. Després, compara-la amb la unitat.

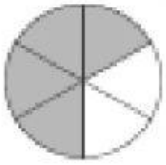

▶ $\frac{4}{6}$

$\frac{4}{6}$ ◯ 1

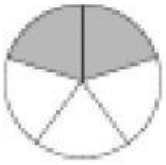

▶ ___

___ ◯ 1

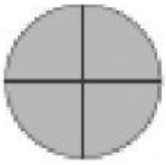

▶ ___

___ ◯ 1

2. Representa cada fracció i completa.

$\frac{12}{12}$ ▶

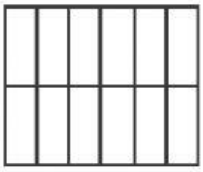

12 ◯ 12 ▶ $\frac{12}{12}$ ◯ 1

$\frac{10}{8}$ ▶



10 ◯ 8 ▶ $\frac{10}{8}$ ◯ 1

$\frac{4}{7}$ ▶



4 ◯ 7 ▶ ___ ◯ ___

3. Compara i escriu el signe corresponent.

$\frac{2}{4}$ ◯ 1	$\frac{3}{3}$ ◯ 1	$\frac{14}{2}$ ◯ 1	$\frac{12}{14}$ ◯ 1
$\frac{7}{9}$ ◯ 1	$\frac{15}{15}$ ◯ 1	$\frac{10}{6}$ ◯ 1	$\frac{9}{9}$ ◯ 1

© 2009 Ilex Balearic/Santillana Educación, S. L.