5º ANO	Superintendência de Educação Infantil e Ensino Fundamental	Secretaria de Estado da Educação
MATEMÁTICA		

NOME:

UNIDADE ESCOLAR:

DATA: 25/01/2021

1) (M03036017) Qual dos instrumentos de medida abaixo Érica usa para pesar seus pacientes?

A) 

B) 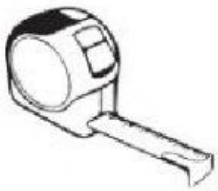

C) 

D) 

02) (M03015817) Observe abaixo a decomposição de um número.

1 CENTENA E 3 DEZENAS

Essa é a decomposição de qual número?

A) 130
B) 103
C) 31
D) 13

02) (M03035117) Resolva a operação abaixo.

244 + 133

Qual é o resultado dessa operação?

A) 111
B) 244
C) 377
D) 388

04) (M040233I7) Observe abaixo a representação de um cilindro



Uma possível planificação desse cilindro é

A)


B)
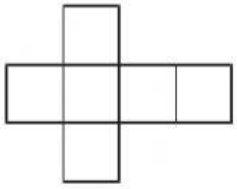

C)
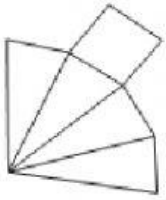

D)
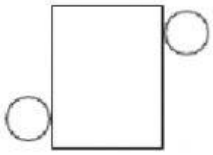

05) (M040323I7) Observe, na tabela abaixo, a quantidade de alguns tipos de canetas à venda em uma papelaria.

Canetas	Ponta Fina	Ponta Grossa
Caneta Azul	95	90
Caneta Preta	81	87
Caneta Vermelha	32	46
Caneta Rosa	28	34

De acordo com essa tabela, qual é a quantidade de canetas vermelhas de ponta fina à venda nessa papelaria?

A) 28
B) 32
C) 46
D) 81