Adunarea si scaderea cu 2

1.Completează casetele cu numărul potrivit:

9 − 2 = □	10 − 2 = □
□ − 2 = □	□ − 2 = □
□ − 2 = □	□ − 2 = □
□ − 2 = 1	□ − 2 = 2

2.Folosind axa numerelor efectuează lanțurile de operații:

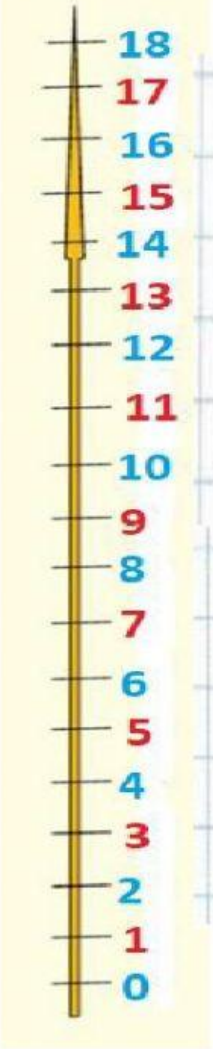

5 + 1 − 2 =	7 − 1 + 2 =
9 − 2 − 1 =	4 − 2 + 1 =
3 + 2 + 1 =	1 + 2 + 2 =
6 − 1 − 2 =	8 − 2 − 2 =
9 − 1 − 2 =	6 + 2 − 1 =
2 + 2 − 1 =	5 − 1 + 2 =

3.Câte elemente trebuie tăiate de la fiecare mulțime ca să rămână 6 ?

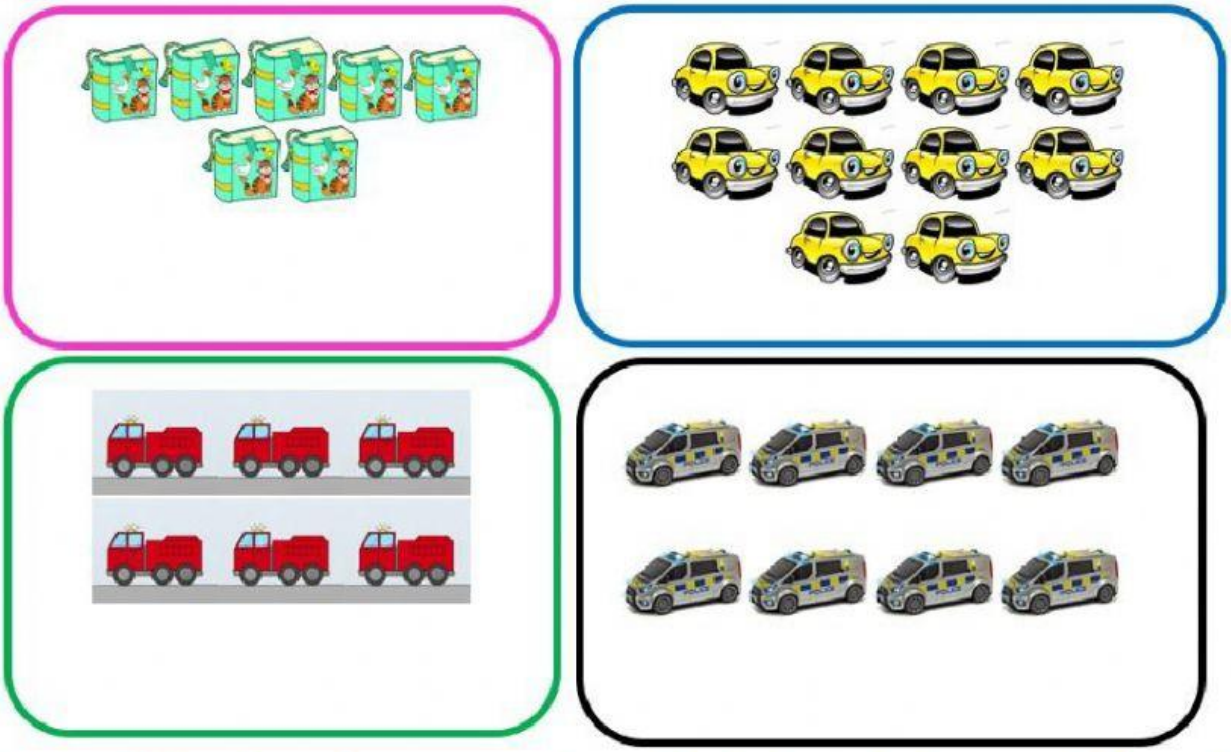

La un delfinariu se fac spectacole cu foci, pinguni și morse. Câte animale sunt la delfinariu? Scrie operația ,apoi calculează.



Scrie lanțul de operții aici și socotește:

Răspuns :La un delfinariu erau _____ animale

Felicitări! Ai ajuns la final!