المملكة العربية السعودية
وزارة التعليم
شركة أجيالنا التعليمية
إدارة التخطيط والتطوير والإشراف التربوي

وزارة التعليم
Ministry of Education

ورقة عمل

مدارس الفرسان الأهلية
Al Forsan National Schools

| اسم الطالب | | الفصل | | الدرس | متوازي الاضلاع |
|---|---|---|---|---|---|

اختر الإجابة الصحيحة :

| | | | | | | | | |
|---|---|---|---|---|---|---|---|---|
| 1 | الشكل المقابل متوازي اضلاع اوجد $m\angle S$ 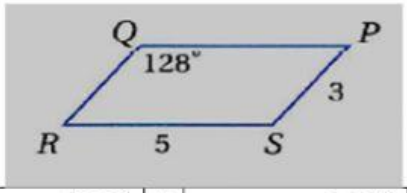  | | | | | | | |
| | أ | $28^\circ$ | ب | $52^\circ$ | ج | $128^\circ$ | د | $180^\circ$ |
| 2 | الشكل المقابل متوازي اضلاع اوجد طول $QP$ 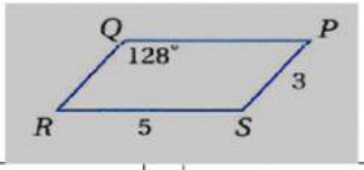  | | | | | | | |
| | أ | $28^\circ$ | ب | 5 | ج | 3 | د | 8 |
| 3 | الشكل المقابل متوازي اضلاع اوجد قيمة X 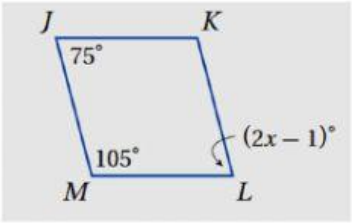  | | | | | | | |
| | أ | $28^\circ$ | ب | $52^\circ$ | ج | $128^\circ$ | د | $180^\circ$ |

**اذا كان الشكل المقابل متوازي الاضلاع اوجد مايلي :**

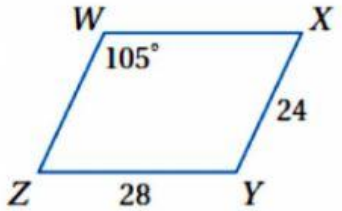


**WX = .....** **WZ=....**

$m\angle Y = \cdots$ $m\angle Z = \cdots$

**اوجد قيمتي X ,Y في الشكل متوازي الاضلاع المقابل**

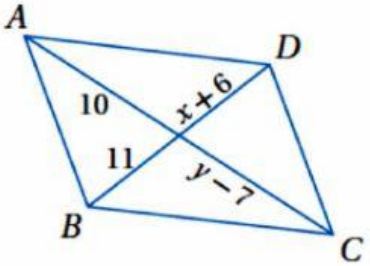


**قيمة x** **قيمة y**

| معلم المادة | ناصف احمد | المشرف التربوي | ا/ محمد جاب الله |
|---|---|---|---|