Ⓑ 选出正确的答案，在空格里画✓。

1.1.5 TP 1 TP 4

1. 下图显示许棠进行了一项活动。

预测进行活动时，许棠的呼吸率。

呼吸率增加	
呼吸率下降	
呼吸率保持不变	

2. 下图显示两片叶子的情况。

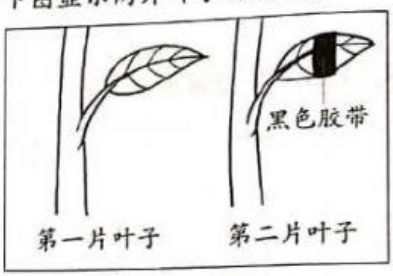

一个星期后，哪一片叶子会发黄？

第一片叶子	
第二片叶子	
两片叶子都发黄	

3. 下图显示一只青蛙在水里。



预测三十分钟后青蛙的情况。

青蛙还活着	
青蛙被水淹死	
青蛙很难呼吸	

4. 下图显示一盆植物被放进封闭的箱子里。

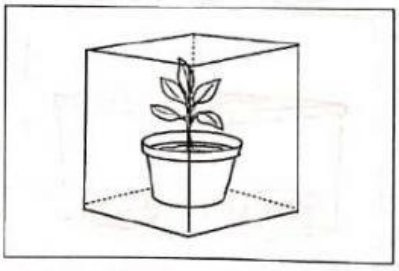

预测五天后植物的情况。

植物死亡了	
植物茁壮生长	
植物没有变化	