Patstāvīgais darbs – Objektu virknes un kopas, darbību secība

1. uzdevums.

Saskati likumsakarību izveidotajā virknē. Tukšajā lauciņā ieraksti tās bultiņas numuru, kura virknē būs nākamā.

Atbilžu varianti:

1.	2.	3.	4.	5.	6.	7.

2. uzdevums.

Pirmajā kolonnā sanumurē darbības pareizā secībā.

Lai izaudzētu burkānus:

	Ravē burkānus.
	Sagatavo zemi sēšanai.
	Novāc burkānus.
	Iesēj sēklas.

3. uzdevums.

Ieraksti tā attēla numuru, kurš iederas dotajā kopā! **Atbilde:** _____

Atbilžu varianti:

1.	2.	3.	4.
			

4. uzdevums.

Ieraksti tās puķu kastes numuru, kura būtu jānovieto pie attēlā redzamā tukšā loga, lai puķu kastes pie logiem būtu izkārtotas pēc noteiktas likumsakarības. **Atbilde:** _____

1.	2.	3.	4.

5. uzdevums.

Sanumurē uzrakstītās darbības pareizā secībā, lai varētu pagatavot ievārījumu.

	Ielej ievārījumu burkā.
	Aizskrūvē vāku.
	Uzliek burkai vāku.
	Vāra, līdz gatavs.
	Ieber katlā ķiršus un cukuru.
	Izņem ķiršiem kauliņus.

6. uzdevums.

Saskati likumsakarību izveidotajā virknē. Kura figūra iederas tukšajā lodziņā?

1) 2)

7. uzdevums.

Ieraksti tā dzīvnieka numuru, kurš iederas dotajā kopā! **Atbilde:** _____



Atbilžu varianti:

1.	2.	3.	4.
			

8. uzdevums.

Saskati likumsakarību attēlotajās spēļu kartītēs. Uzraksti, kuras krāsas un cik puķītes jāattēlo pēdējās kartītes tukšajā lauciņā, lai turpinātos tā pati likumsakarība.
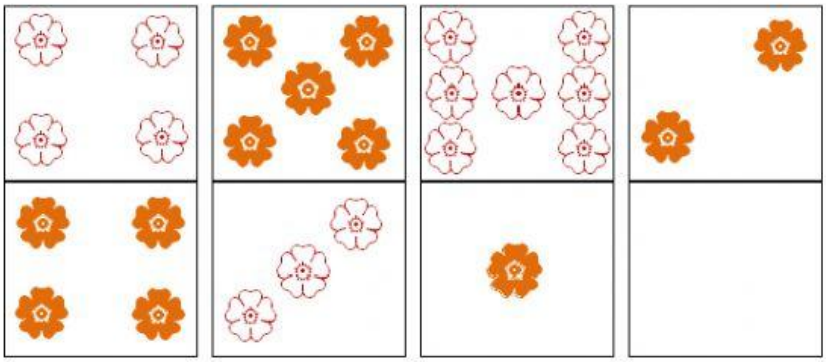
Atbilde: Tukšajā lauciņā jābūt _____ krāsas puķītēm, to skaitam jābūt _____.