ضعي دائرة على الأداة المناسبة. الاسم /.....

سرعة الرياح			
كمية المطر			
درجة الحرارة			
اتجاه الرياح	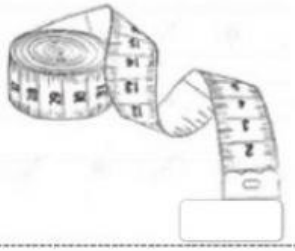		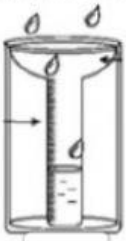

صلي الكلمات إلى الصورة المناسبة .

مشمس	غائم	ممطر	ثلجي

المعلمة / فوز القرني