Išspręsk uždavinius.

24 klasės mokiniai sužinojo savo mamų pomėgius ir juos užrašė lentelėje. Pabaik ją pildyti.

Pomėgis	Mokančiųjų dalis	Mokančiųjų skaičius	Nemokančiųjų skaičius
Megzti	$\frac{4}{6}$		
Nerti	$\frac{2}{4}$		
Siuvinėti	$\frac{2}{3}$		
Austi	$\frac{1}{8}$		

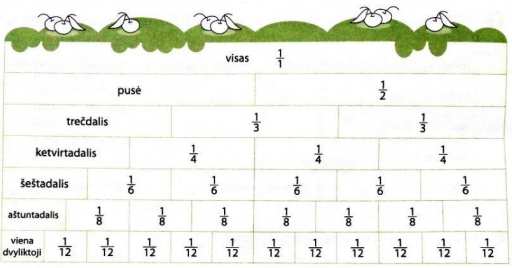

Parašyk, ar tai tiesa (T), ar melas (M).

$\frac{1}{2} = \frac{3}{6}$ ..... $\frac{2}{3} = \frac{4}{6}$ ..... $\frac{1}{4} = \frac{3}{8}$ .....

$\frac{1}{6} = \frac{2}{12}$ ..... $\frac{3}{4} = \frac{6}{8}$ ..... $\frac{2}{4} = \frac{5}{8}$ .....

$\frac{2}{3} = \frac{4}{8}$ ..... $\frac{3}{6} = \frac{6}{8}$ ..... $\frac{4}{6} = \frac{5}{8}$ .....



- Kiek kibirų pieno telpa bidone?

☐☐☐☐☐☐ (.....)

- Kiek ąsočių pieno telpa kibire?

☐☐☐☐☐☐ (.....)

- Kiek ąsočių pieno telpa bidone?

☐☐☐☐☐☐ (.....)

Per mėnesį senelės vištos padėjo 120 kiaušinių.
Kiek kurių dėžučių reikės tiems kiaušiniams sudėti?

☐ dėž. ☐ dėž. ☐ dėž.

Per dieną teta primelžė 28 l pieno. 4 l ji sugirdė gyvuliams, o likusį pieną supilstė į 3 l talpos stiklainius. Kiek stiklainių buvo pripilta?

Ats.: .....

39 : ☐ = 4 (liek. 3) 43 : ☐ = ☐ (liek. 3) 62 : ☐ = ☐ (liek. 8)
55 : ☐ = 7 (liek. 6) 74 : ☐ = ☐ (liek. 2) 53 : ☐ = ☐ (liek. 5)

7 piratai rado 55 laikrodžius ir pasidalijo juos po lygiai. 6 laikrodžiai liko. Po kiek laikrodžių teko kiekvienam piratui?



45 : ☐ = 6 (liek. ☐) 39 : ☐ = 5 (liek. ☐)
76 : ☐ = 8 (liek. ☐) 75 : ☐ = 9 (liek. ☐)

☐ : 4 = 6 (liek. 1) ☐ : 5 = 9 (liek. 3)
☐ : 7 = 8 (liek. 6) ☐ : 6 = 6 (liek. 2)

Raganaičių motinėlė išvirė kiekvienai dukrai po 21 l jaunystės eliksyro ir supilstė jį į raganaičių indus. Kiek indų prireikė kiekvienai raganaitei?

☐ indų ☐ indų ☐ indų