Тиждень № ☐ **Урок №** ☐ _____

(ім'я та прізвище)

Напиши дату та форму роботи (самостійна).

Доповни схеми та розв'яжи задачу

Після того як Буквик пригостив друзів 7 карамельками та 5 льодяниками, у нього залишилося ще 8 цукерок. Скільки цукерок було в Буквика спочатку?

Було — ☐ ц.
Пригостив — ? ☐ і ☐ ц.
Залишилося — ☐ ц.

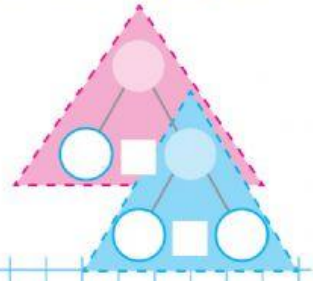

Розв'язання

Відповідь:

Обчисліть «ланцюжки».

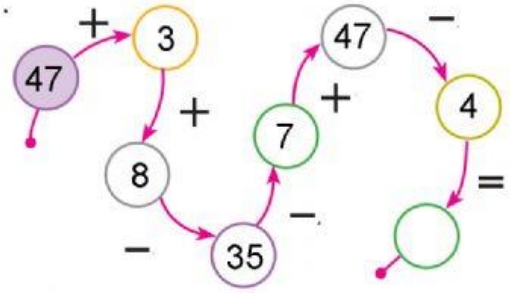

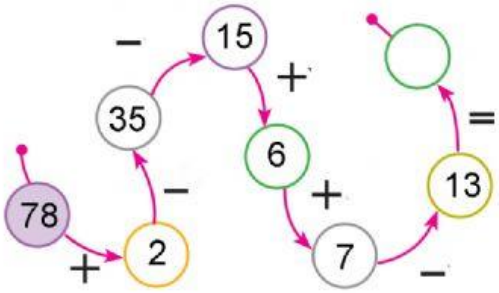

Знайди значення виразів за схемами.

35 + 59 = ☐ + ☐ = ☐
☐ + ☐

74 + 18 = ☐ + ☐ = ☐
☐ + ☐

64 − 45 = ☐ − ☐ = ☐
☐ + ☐

35 − 27 = ☐ − ☐ = ☐
☐ + ☐

Буквик
Ostrovok