Десетични дроби

Зад.1 Запишете числото, което съдържа **7** десетици, **2** стотни, **1** десета, **5** хиляди, **3** десетохилядни.

— — — — —, — — — — —

Числото се чете:

Зад.2 За да получите числото a, разменете цифрите на десетите и на стотиците в числото 1425,3809. За да получите числото b, разменете цифрите на стотните и на десетиците в числото 1385,421.

Запишете двете числа: **a =** **b=**

Сравнете ги: a b

Зад.3 Запишете като сбор от разреди:

а) сто и пет стотни: **Д+ Е+ д+ с+ х**

б) 15 десети: **Д+ Е+ д+ с+ х**

в) 31 хилядни: **Д+ Е+ д+ с+ х**

г) 208 стотни: **Д+ Е+ д+ с+ х**

Зад.4 Запишете кои числа са изобразени на числовите оси:

а)

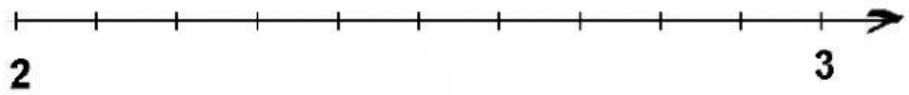

б)

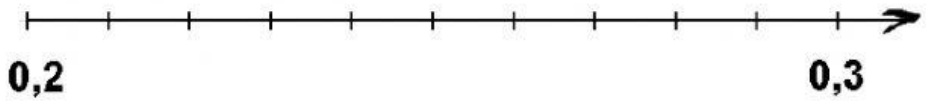

в)



Зад.5 Коя от десетичните дроби е равна на $\frac{3}{5}$:

3,5 **0,35** **0,6** **0,06**