543. Запиши добутки за схемами й обчисли їх значення. Скористайся таблицею множення.

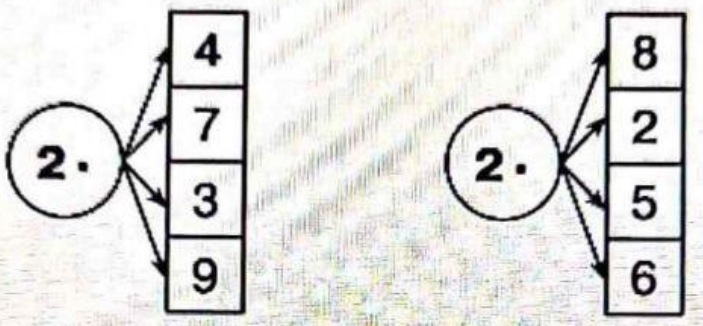

544. Скільки монет зображено на малюнку? Скільки це гривень?



545. На пошиття однієї сукні витрачають 2 м тканини. Скільки метрів тканини потрібно для пошиття п'яти таких суконь?

546. Скільки всього кругів на малюнку?



547. У класі на трьох підвіконнях стоїть по 2 вазони, а на четвертому — 3 вазони. Скільки всього вазонів стоїть на чотирьох підвіконнях?

548. 62 + 19 – 31 90 – 34 – 6 100 – 67 + 5 100 – (67 + 5)