ESCUELA DE EDUCACIÓN BÁSICA
"EDUARDO KINGMAN"

eduardokingman13@hotmail.com
Sibambe # 510 y Ambato

NOMBRE _____ **2DO AB**

1.- Arrastra los números y completa las sucesiones de suma y de resta (2 ptos)

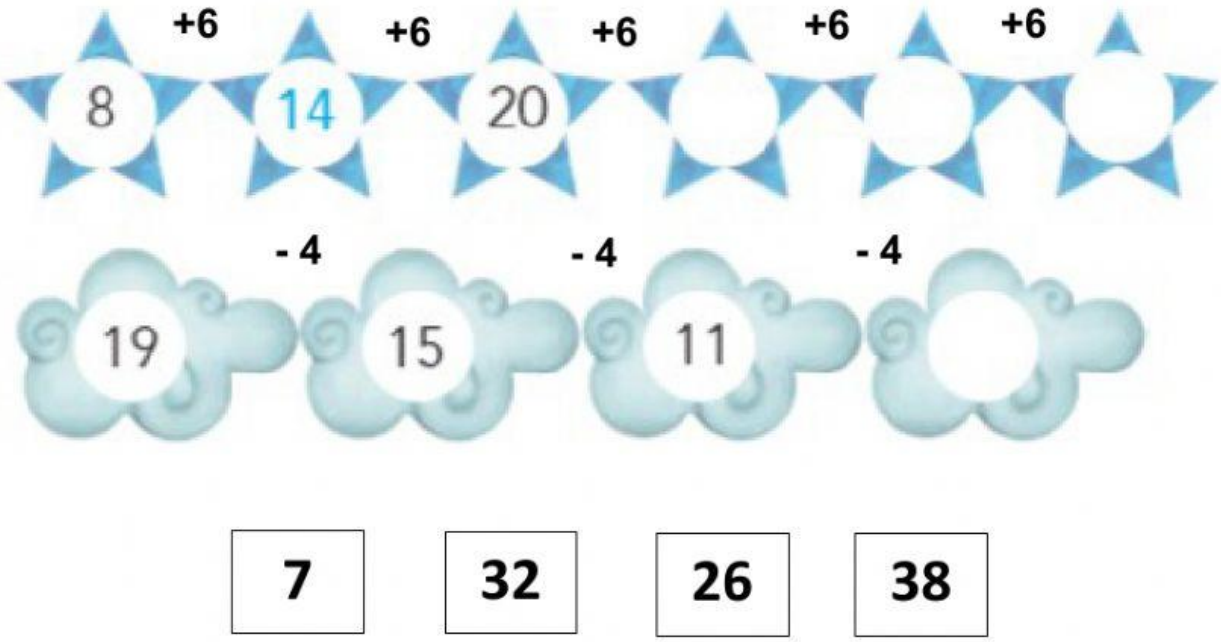

2.- Escoge el Patrón correcto y completa secuencia (2 ptos)



3.- Arrastra y organiza los números de mayor a menor para formar una secuencia y descubre el patrón numérico (2 Ptos)



Patrón: _____

ANTILLANA

4.- Selecciona los números que indica tu maestra (2 Ptos)

55	-	23	-	18	-	84	-
33	-	76	-	69	-	10	-
88	-	6	-	40	-	1	-

5.- Completa la serie del 60 al 80 (2 Ptos)

60	-		-	62	-		-		-	65
	-	67	-		-	69	-		-	71
	-	73	-		-		-	76	-	
78	-		-	80	-					