Тиждень № ____ **Урок №** ____ _____

(ім'я та прізвище)

Напиши дату та форму роботи (самостійна).

Запиши вершини та сторони кожної фігури за зразком.

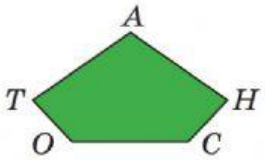

П'ятикутник: ОТАНС

Вершини: О,Т,А,Н,С

Сторони: ОТ, ТА, АН, НС, СО

Чотирикутник: _____

Вершини: _____

Сторони: _____

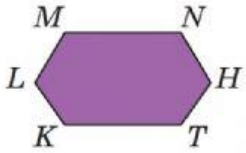

Шостикутник: _____

Вершини: _____

Сторони: _____

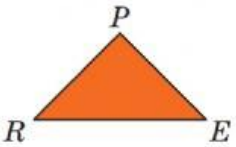

Трикутник: _____

Вершини: _____

Сторони: _____

Обчисли периметр геометричної фігури.

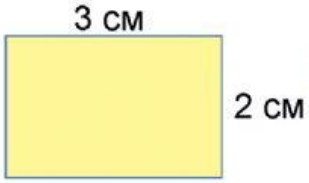

$P_{▭}$ = (см)

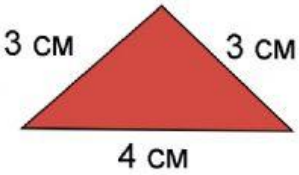

$P_{△}$ = (см)

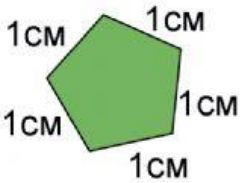

$P_{⬠}$ = (см)