Ημερομηνία:……..

Όνομα:……..

1

Γράψε κυκλικά τους αριθμούς ως το 50. Σε οδηγούν τα βελάκια!

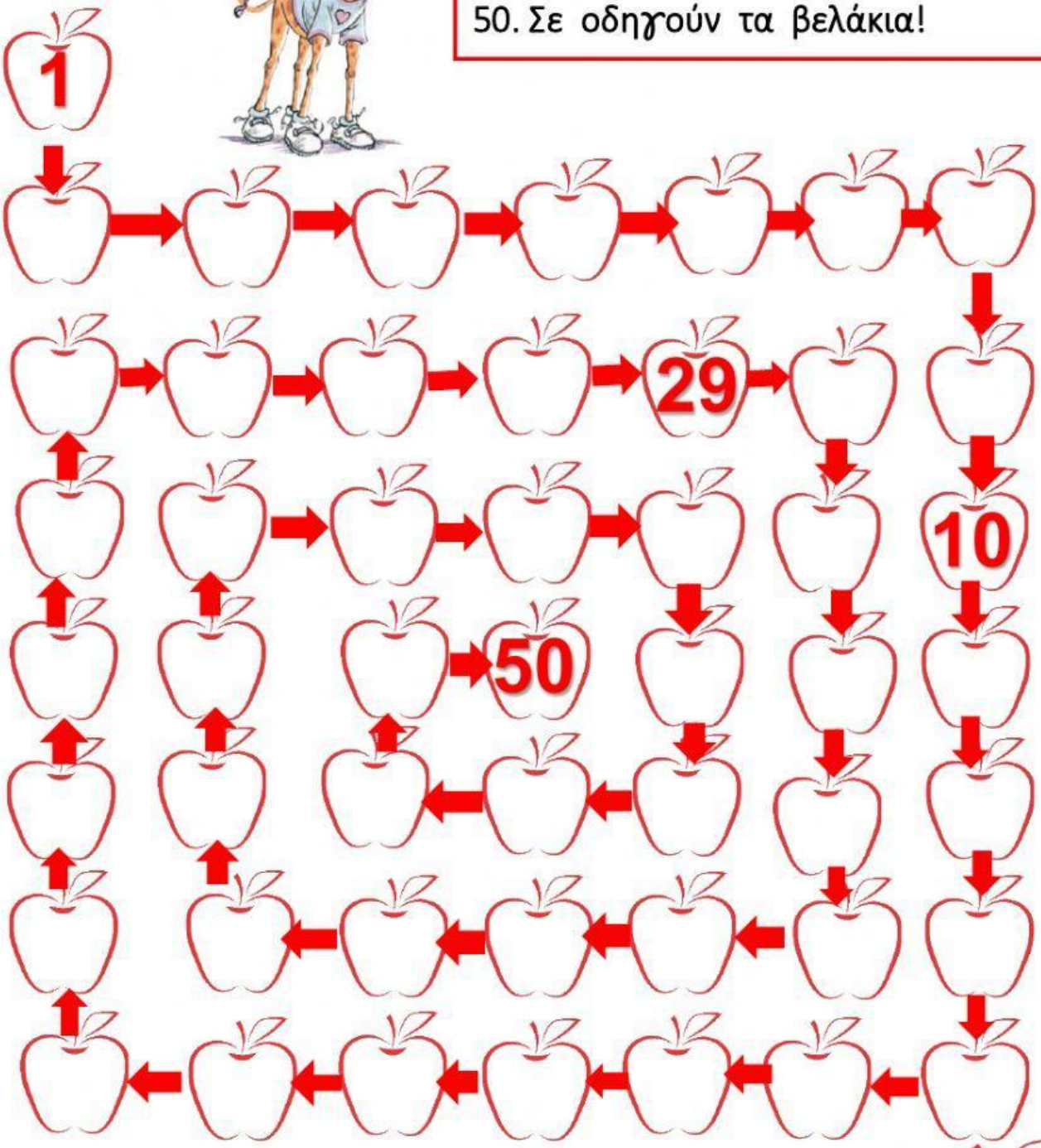

sotiria199172

2

Τώρα ξεκίνα από την αρχή και κάνε κλικ στα μήλα που έχουν αριθμούς της προπαίδειας του 5.

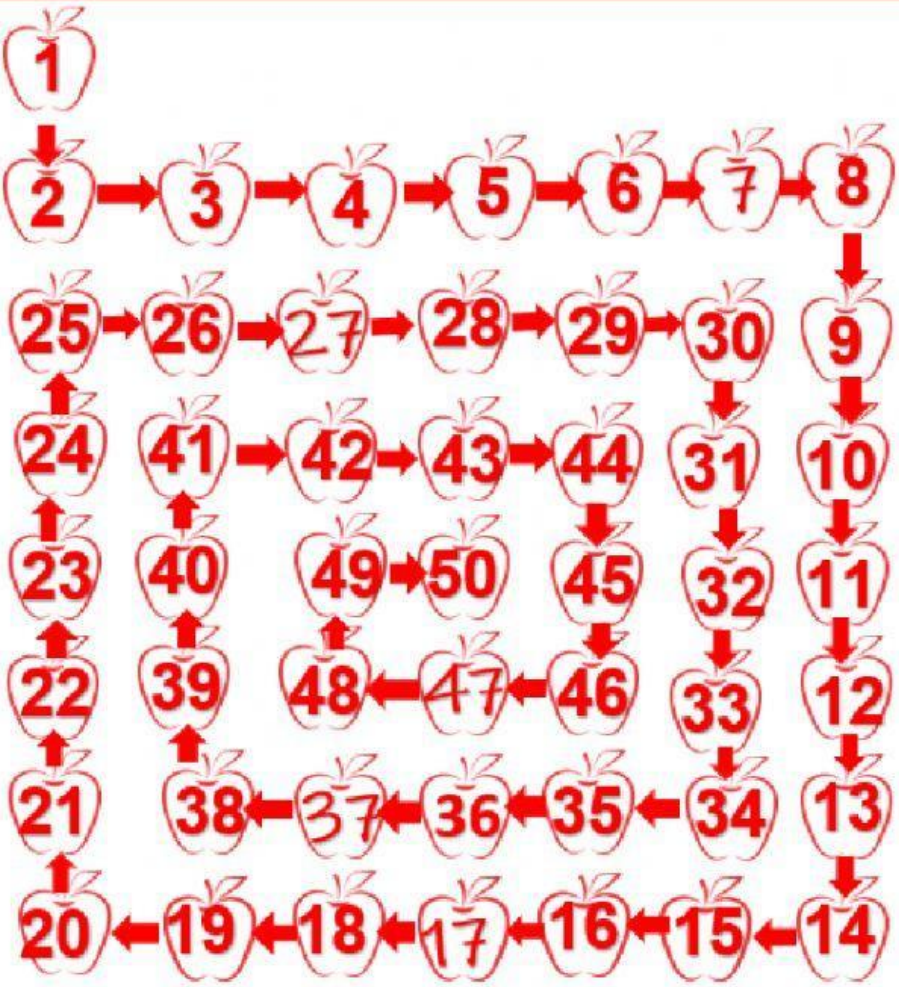

Πάμε 5-5 ως το 100; Γράψε τους αριθμούς στα μήλα.



3 Ποιο είναι κάθε φορά το σωστό; Κάνε √ στο κουτάκι και υπολόγισε πόσα είναι τα € κάθε φορά.

5+5 ☐

5X5 ☐

5X6 ☐

Όλα είναι …… €.

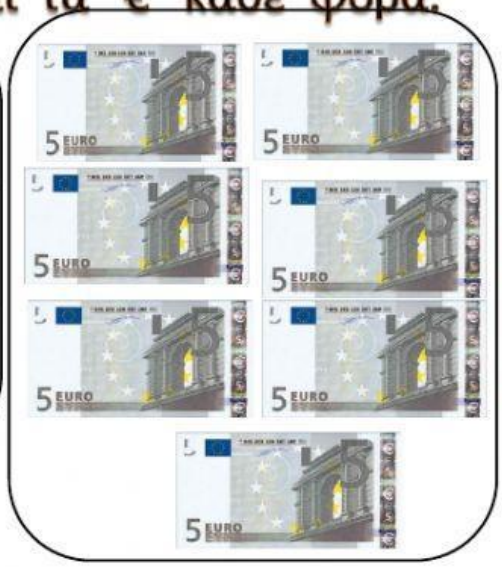

7X5 ☐

5X7 ☐

7+5 ☐

Όλα είναι …… €.

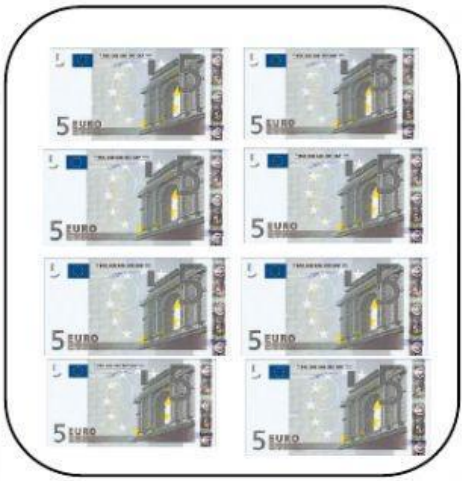

8+5 ☐

8X5 ☐

5X8 ☐

Όλα είναι …… €.

4 Σύρε τα σωστά μέσα στο πλαίσιο.

20€

Υπολόγισε με πρόσθεση:

…….

(Γράψε χωρίς κενά ανάμεσα).

Υπολόγισε με πολλαπλασιασμό:

…… Χ …….. = ……..

20 λεπτά

Υπολόγισε με πρόσθεση:

…….

(Γράψε χωρίς κενά ανάμεσα).

Υπολόγισε με πολλαπλασιασμό:

…… Χ …….. = ……..

5

Η Ευτυχία έκανε κουλουράκια. Τα έβαλε σε 6 πιάτα, για να κρυώσουν. Σε κάθε πιάτο έβαλε 5 κουλουράκια. Πόσα είναι όλα τα κουλουράκια;

Σκέφτομαι:

1. Τα πιάτα είναι ..... .
2. Σε κάθε πιάτο έβαλε ..... κουλουράκια.
3. Αν κάνω πρόσθεση, θα έχω:

..... + ... + ... + ... + ... + ... = ...

4. Αν το σκεφτώ με πολλαπλασιασμό, θα έχω:

..... Χ ..... = ...

Απάντηση:.....

Κάνε μια ολοκληρωμένη απάντηση.

- Απάντησε ακριβώς σε αυτό που σε ρωτάει.
- Προσοχή στα κεφαλαία,τους τόνους και την τελεία. Αν κάτι από αυτά δεν γίνει σωστά, θα το δει ως λάθος!
- Γράψε αφήνοντας ΜΟΝΟ 1 κενό ανάμεσα στις λέξεις.

6

Πίσω από κάθε σπιτάκι είναι 5 στρουμφ. Πόσα είναι όλα τα στρουμφ;

1. Αν κάνω πρόσθεση, θα έχω:

..... + ... + ... + ... + ... = ...

2. Αν το σκεφτώ με πολλαπλασιασμό, θα έχω:

..... Χ ..... = ...

Απάντηση:.....

Κάνε μια ολοκληρωμένη απάντηση.

- Απάντησε ακριβώς σε αυτό που σε ρωτάει.
- Προσοχή στα κεφαλαία,τους τόνους και την τελεία. Αν κάτι από αυτά δεν γίνει σωστά, θα το δει ως λάθος!
- Γράψε αφήνοντας ΜΟΝΟ 1 κενό ανάμεσα στις λέξεις.