LEMBAR KERJA

TEOREMA PYTHAGORAS

Oleh : Dewi Oktaviani, S.Pd.

Bagian 1

Pilihlah "**BENAR**" jika pernyataan berikut benar dan "**SALAH**" jika pernyataan berikut salah!

Kuadrat panjang sisi miring suatu segitiga siku-siku adalah sama dengan jumlah kuadrat panjang sisi-sisi yang lain

Sisi miring pada segitiga siku-siku disebut juga hipotenusa

Bagian 2
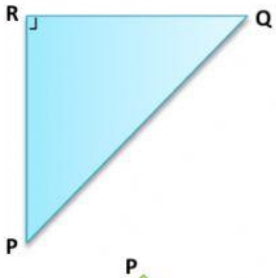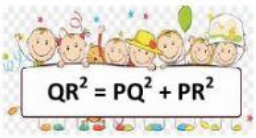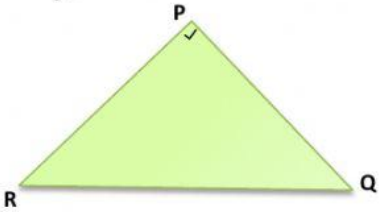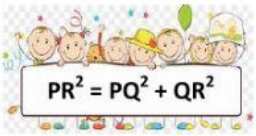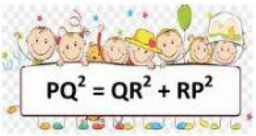
Pasangkan SEGITIGA berikut dengan menarik garis pada RUMUS yang sesuai!