ГЕОМЕТРИЧНИ ЗАДАЧИ – ОБИКОЛКА – 3 КЛАС

Задача 1

Намерете обиколката на триъгълника ABC.

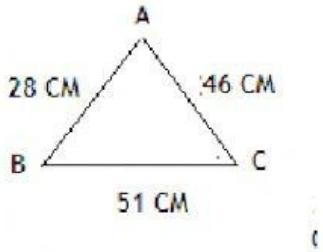

Отговор:

Задача 2

Червеният триъгълник е равностранен с дължина на страната 23см.

Обиколката му е _____ см.

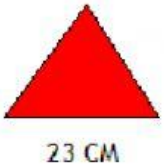

Задача 3

Равнобедрен триъгълник е с обиколката 37 см и основа 9 см. Дължината на всяка от другите две страни е _____ см.

Задача 4

Градината на Никола е с форма на квадрат със страна 9 метра. Каква е дължината на цялата ограда около градината?

Отговор: _____ метра.

LIVEWORKSHEETS

Задача 5

В правоъгълника ABCD стената в червено е 18 см, а в синьо 12 см.

Обиколката е ____ см.

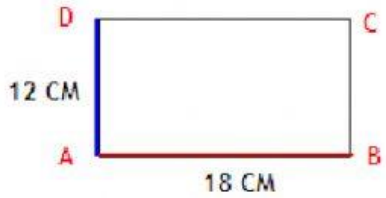

Задача 6

В правоъгълник едната страна е 28 см, а другата с по-малка с 6 см.

Обиколката е ____ см.

Задача 7

Правоъгълник е с ширина 19 см и дължина три пъти по-голяма от ширината. Обиколката му е ____ см.

Задача 8

Каква е обиколката на синята фигура?

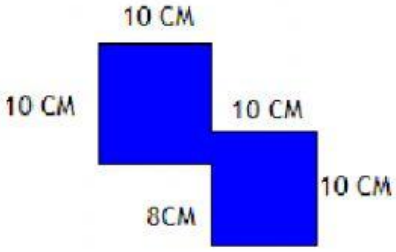

Каква е обиколката на червената фигура?

Отговор:

LIVEWORKSHEETS

Задача 9

Всяко от зелените квадратчета е с обиколка 12 см. Каква е обиколката на големият квадрат?



Отговор:

LIVEWORKSHEETS