"BELAJAR GEOGRAFI HEPI"
LEMBAR KERJA PESERTA DIDIK DIGITAL

Belajar Geografi Itu Hepi | @Geohepi2018 | @Geo_Hepi | M Rifky AZ

KOMPETENSI DASAR

3.3. Menganalisis jaringan transportasi dan tata guna lahan dengan peta dan/atau citra penginderaan jauh serta Sistem Informasi Geografis (SIG) kaitannya dengan pengembangan potensi wilayah dan kesehatan lingkungan

MATERI

ANALISIS SIG UNTUK KESEHATAN LINGKUNGAN DAN POTENSI WILAYAH

NAMA	:	
SEKOLAH	:	
KELAS	:	

AMATI FENOMENA KESEHATAN LINGKUNGAN DARI VIDEO BERIKUT

SETELAH MENGETAHUI TENTANG PENYAKIT LEPTOSPIROSIS BAGAIMANA ANALISIS SISTEM INFORMASI GEOGRAFIS YANG BISA DILAKUKAN?

	MENYIAPKAN DATA RASTER TENTANG VEGETASI		MELAKUKAN ANALISIS DENGAN METODE NETWORK
	MENYIAPKAN DATA VEKTOR TENTANG SELOKAN		MELAKUKAN ANALISIS DENGAN METODE KLASIFIKASI
	MENYIAPKAN DATA ATTRIBUT TENTANG PENDERITA PENYAKIT		MELAKUKAN ANALISIS DENGAN METODE OVERLAY

LIVEWORKSHEETS

A. BERIKUT PETA PERSEBARAN PENDERITA LEPTOSPIROSES KOTA SEMARANG 2011

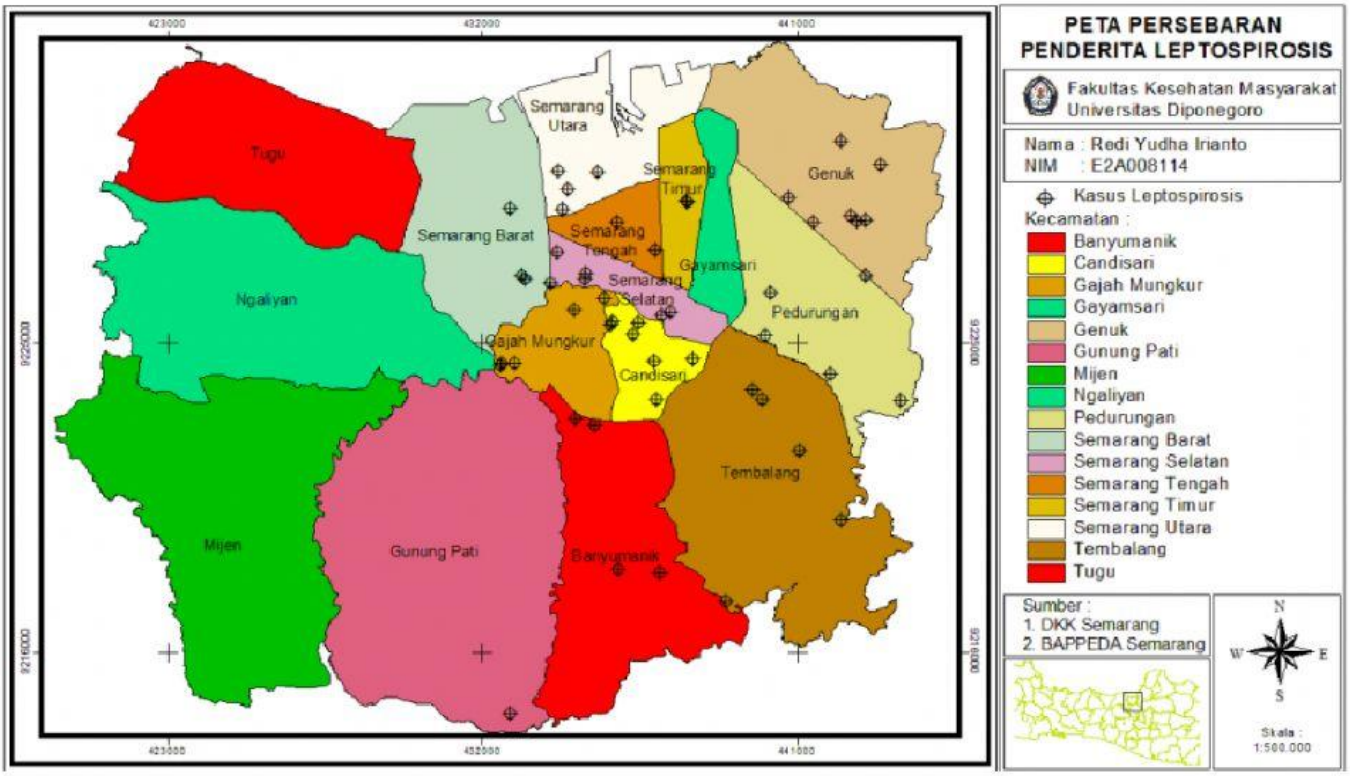

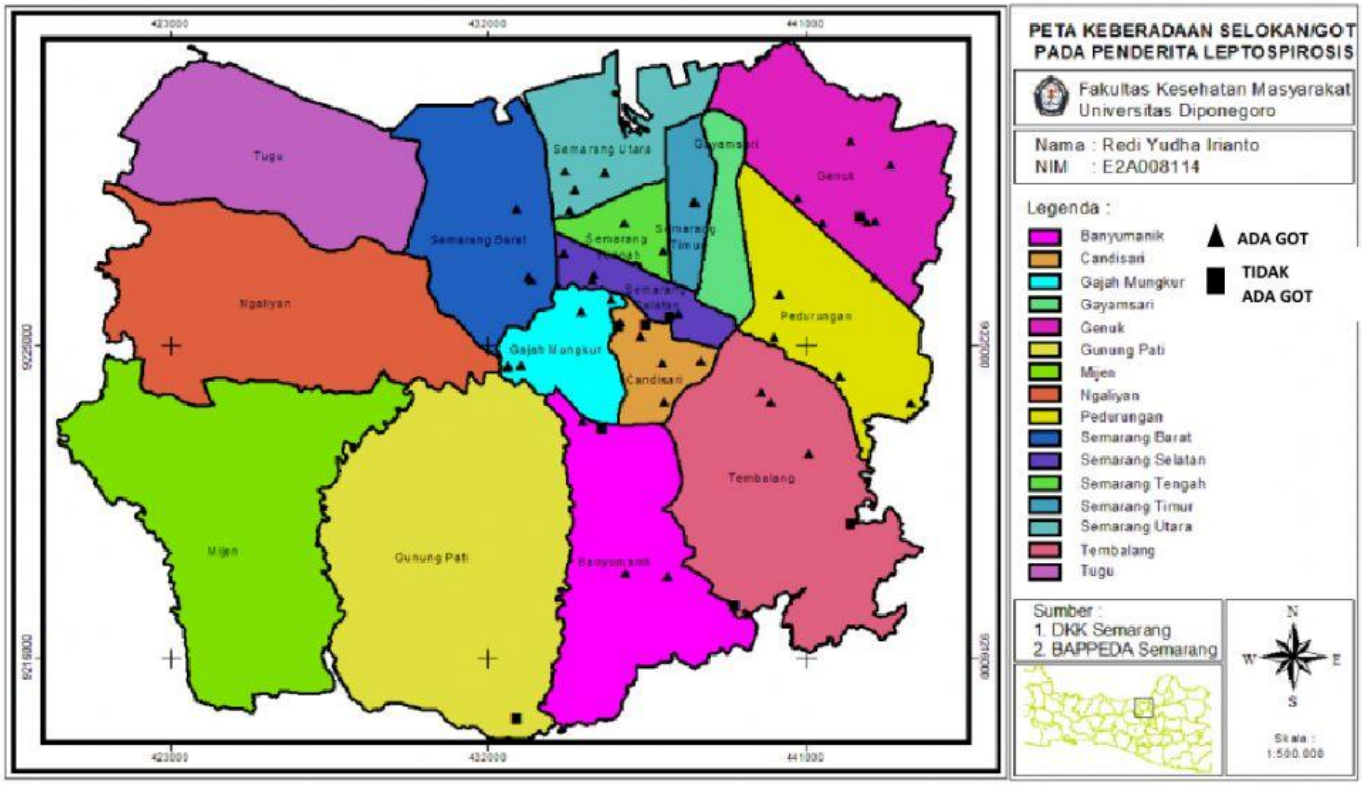

DARI ANALISIS TERSEBUT DENGAN SISTEM INFORMASI GEOGRAFIS DAPAT DIAMBIL KESIMPULAN BAHWA!

Analisis sistem informasi yang digunakan adalah overlay		**BENAR**		**SALAH**
Jumlah kasus penyakit leptospitosis banyak terjadidi daerah yang ada got		**BENAR**		**SALAH**

LIVEWORKSHEETS

PERHATIKAN PETA SEBARAN COVID-19 DI INDONESIA BERIKUT!

BERIKAN ANALISIS SISTEM INFORMASI GEOGRAFIS BERIKUT DENGAN BENAR DAN SALAH!

PENENTUAN WILAYAH YANG MEMILIKI JUMLAH BANYAK DAN SEDIKIT TERKONFIRMASI KASUS COVID-19 MERUPAKAN ANALISIS KLASIFIKASI		**BENAR**
		SALAH
DATA TERKONFIRMASI COVID-19 DIMASUKAN MENJADI DATA RASTER		**BENAR**
		SALAH
DATA TERKONFIRMASI COVID-19 DIMASUKAN DALAM DATA ATTRIBUT		**BENAR**
		SALAH
PENENTUAN WILAYAH YANG MEMILIKI JUMLAH BANYAK DAN SEDIKIT TERKONFIRMASI KASUS COVID-19 MERUPAKAN ANALISIS BUFFERING		**BENAR**
		SALAH
DATA TERKONFIRMASI COVID-19 DIMASUKAN DAN DIMUNCULKAN DALAM BENTUK DATA VEKTOR		**BENAR**
		SALAH

LIVEWORKSHEETS

BERIKUT MERUPAKAN PETA PERSEBARAN *FAULT* (KONVERGEN, DIVERGEN DAN TRANSFORM) DI INDONESIA.

POTENSI YANG DAPAT DI JELASKAN DARI DATA TERSEBUT ADALAH.....

	WISATA		**GEMPA BUMI**		**GUNUNG API**		**BANJIR**

ANALISIS KERUANGAN PADA SISTEM INFORMASI GEOGRAFIS (SIG) TERKAIT POTENSI WILAYAH

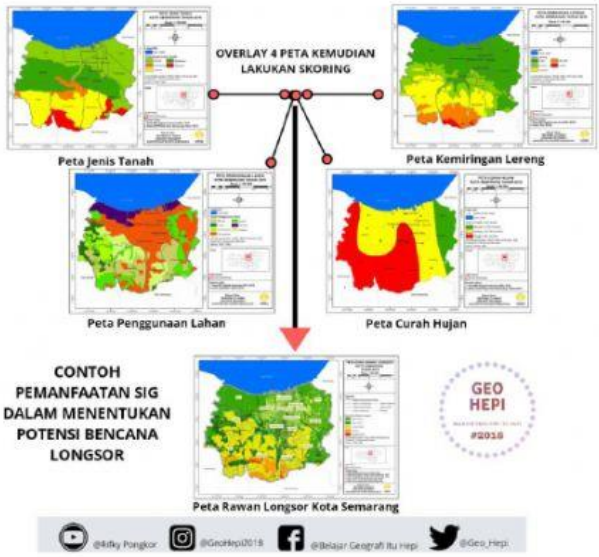

Dari analisis overlay tentang potensi longsor pada gambar berikut sebenarnya akan terlihat wilayah di Kota Semarang memiliki beberapa wilayah dengan tingkat kerawanan longsor yang berbeda hal tersebut merupakan upaya dalam....

A. Melakukan Skoring kemudian akan dianalisis dengan teknik networing untuk mengklasifikasikan longsor.

B. Melakukan overlay dengan skoring sehingga akan menentukan jangkauan longsor pada wilayah perbatasan luar Kota Semarang

C. Melakukan proses network bahaya longsor yang tersebar di Kota Semarang dengan kriteria tertentu

D. Melakukan proses buffering bahaya longsor yang tersebar di Kota Semarang dengan kriteria tertentu

E. Melakukan proses klasifikasi bahaya longsor yang tersebar di Kota Semarang dengan kriteria tertentu.

JAWAB DISINI
TULIS
A/B/C/D/E

BELAJAR GEOGRAFI HEPI BERSAMA GEOHEPI

LIVEWORKSHEETS