# Fiumi d'Italia

fiumi d'italia
Martina ionni

FIUMI D'ITALIA E IL FIUME PO
GEOGRAFIA

SILVIA PRIORE

I fiumi d'Italia possono dividersi in **3 gruppi**. Scrivi quali sono e collegali alle loro definizioni

Fiumi A.....

Fiumi Ap.....

F.....

Si trovano in Italia Meridionale, sono brevi, sono asciutti d'estate e hanno piene in primavera

Si trovano a Nord, nascono dalle Alpi, sono lunghi e hanno portata costante

Nascono dagli Appennini, sono più brevi e si dividono in T_____ e A_____

## FIUMI ALPINI

I fiumi alpini sono alimentati dai g_____, dalla p_____ e dalle nevi e quindi hanno una portata COSTANTE / IRREGOLARE . Inoltre sono molto LUNGHI / BREVI.
I due più grandi fiumi italiani sono APPENNINICI / ALPINI e sono il P__ e l'A_____.
**Il Po** è il fiume più _____ d'Italia, nasce dal monte M_____ , attraversa tutta la pianura P_____ e sfocia nel mar ADRIATICO / LIGURE con una foce a ESTURIO / DELTA cioè ramificata.
**L'Adige** è il 2° fiume d'Italia, nasce in val Venosta e sfocia nel mar TIRRENO / ADRIATICO con una foce a ESTURIO / DELTA cioè a imbuto.

## FIUMI APPENNINICI

I fiumi appenninici hanno carattere t_____ cioè sono più BREVI / LUNGHI e hanno portata IRREGOLARE / COSTANTE.
Possono dividersi in T_____ e A_____.
Quelli Adriatici sono BREVI / LUNGHI , hanno un percorso RETTILINEO / TORTUOSO e sono disposti a PETTINE.
Quelli Tirrenici sono più LUINGHI / BREVI hanno un percorso TORTUOSO / RETTILINEO.
Sono ad esempio il T_____ e l' A_____.
Il **Tevere** nasce dal monte F_____ ed ha una foce ad E_____ cioè a imbuto.
L'**Arno** nasce sul monte F_____ e scorre in Toscana / Umbria.

## FIUMARE

Si trovano a SUD / NORD sono brevi e completamente a_____ d'estate mentre hanno piene in p _____.

- I principali fiumi d' Italia nascono da due catene montuose che sono:

  _____ e _____
- Quali sono i 2 fumi più lunghi d'Italia? _____ e _____ . Sono entrambi fiumi Alpini o Appenninici? _____.
- In quale mare sfociano Po e Adige? _____
- Il Po ha la foce a delta o a estuario?_____
- L'Adige ha la foce a delta o a estuario?_____
- Tevere e Arno sono Alpini o Appenninici? _____. A quale versante appartengono?_____
- I fiumi del versante Adriatico sono: BREVI LUNGHI RETTILINEI TORTUOSI TORRENTIZZI ALPINI
- I fiumi Alpini sono : BREVI LUNGHI GRANDE PORTATA PICCOLA PORTATA

# Laghi d'Italia

| Laghi italiani<br>Maestrasabrilla | Laghi italiani<br>Alessandra g. |
|---|---|

In Italia possiamo trovare vari tipi di **laghi:**

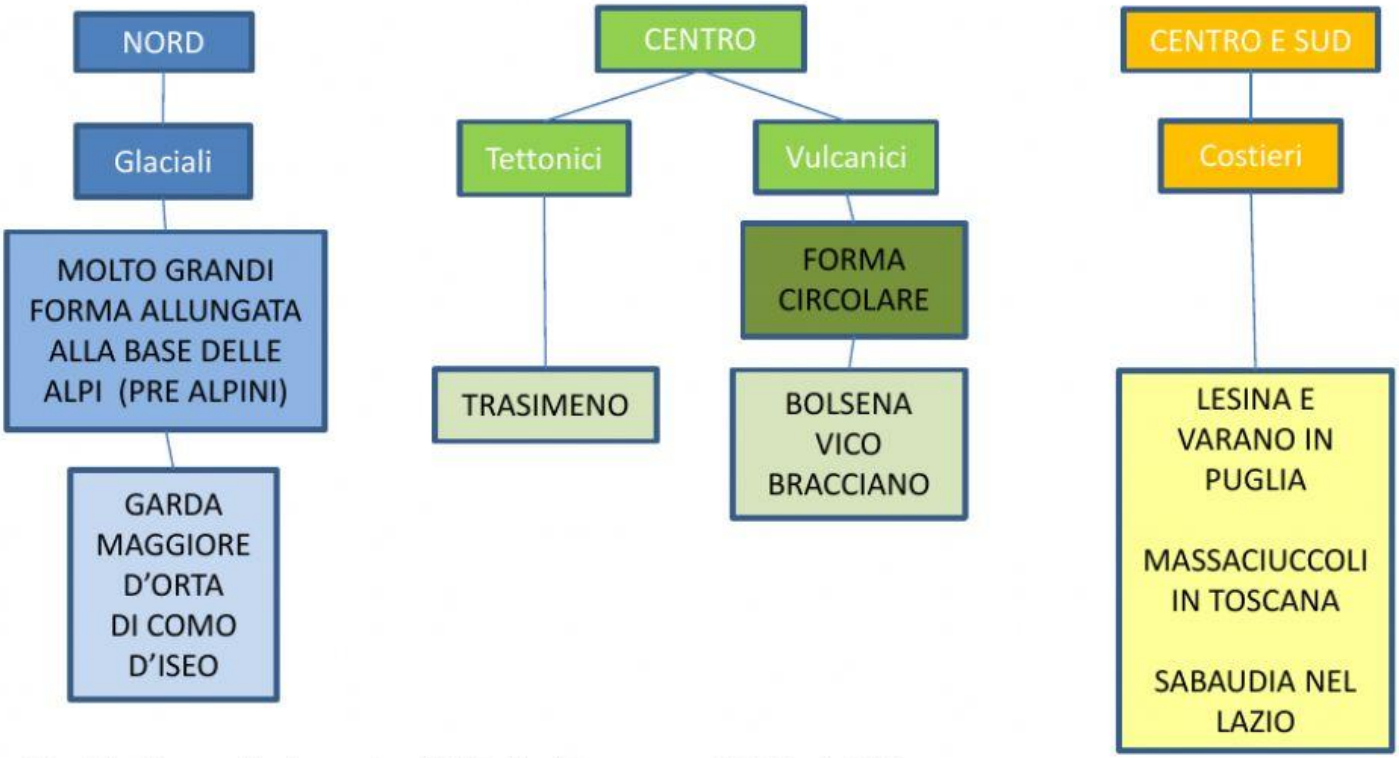


I Laghi più grandi e importanti d'Italia si trovano a NORD / SUD.
Sono laghi PRE-ALPINI / APPENNINICI di origine GLACIALE / ARTIFICIALE.
Hanno una forma CIRCOLARE / ALLUNGATA. Sono ad esempio:_____

Nell'Italia centrale i laghi sono più PICCOLI / GRANDI . Il più grande è il T_____ in U_____ ed ha origine TETTONICA / COSTIERA.
Gli altri laghi del centro hanno origine GLACIALE / VULCANICA e quindi una forma ALLUNGATA / CIROCOLARE. Si trovano prevalentemente nel L_____ e sono ad esempio: _____

Nell'Italia del sud i laghi sono prevalentemente VULCANICI / COSTIERI e sono ad esempio: _____

Indica quali sono i LAGHI GLACIALI, LAGHI VULCANICI E LAGHI COSTIERI:

CARTINA MUTA DEI LAGHI D'ITALIA

# Pianure d'Italia

Le pianure in italia
Classe quarta
Scuola primaria
Maestra cristina r

| | | | | | | | | |
|---|---|---|---|---|---|---|---|---|
| NORD | TAVOLIERE | **VASTA** | PADANA | 23% | PO | **RILIEVI** | SUD | **200** |

**LA PIANURA E' UNA _____ DISTESA DI TERRENO PRIVA DI _____ CHE NON SUPERA I _____m DI ALTITUDINE**

In Italia le pianure occupano solo il _____ del territorio. La pianura più estesa si trova a _____: La pianura _____ che prende il nome dal grande fiume che la attraversa: il _____.

La seconda pianura italiana invece si trova a _____ ed è il _____DELLE PUGLIE.

Le pianure italiane hanno origini diverse: (trascina vicino al disegno la definizione corretta)

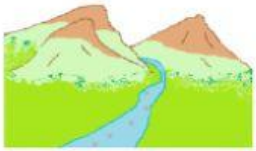

**PIANURE ALLUVIONALI:**

**PIANURE VULCANICHE:**

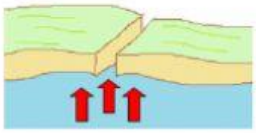

**PIANURE DI SOLLEVAMENTO:**

**PIANURE DA BONIFICA DI PALUDI:**

Originate dall'uomo con opere di prosciugamento del terreno e disboscamento

Originate dal sollevamento del fondo marino

Originate dalle ceneri eruttate dal vulcano

Originate dai detriti trasportati dai fiumi.

Trascina sotto ogni definizione il nome delle pianure e scrivi sulla cartina i numeri corrispondenti

(1) **PIANURE ALLUVIONALI:**

(2) (3) **PIANURE DI SOLLEVAMENTO:**

(4) (5) (6) **PIANURE DA BONIFICA DI PALUDI:**

(7) (8) **PIANURE VULCANICHE:**

PIANURA PADANA

TAVOLIERE DELLE PUGLIE

CAMPIDANO

AGRO PONTINO

MAREMMA

PIANA DI CATANIA

PIANURA CAMPANA

AGRO ROMANO