المجلس	2	الصف	السابع
النطاق	6	الدرس	6.1 ف2
المدرسة	مدرسة الزوراء 1 للتعليم الأساسي ح2	بطاقة خروج #	3
الاسم		الشعبة	

1. حدد كيف تتفاعل الموجة مع المادة في كل صورة ؟

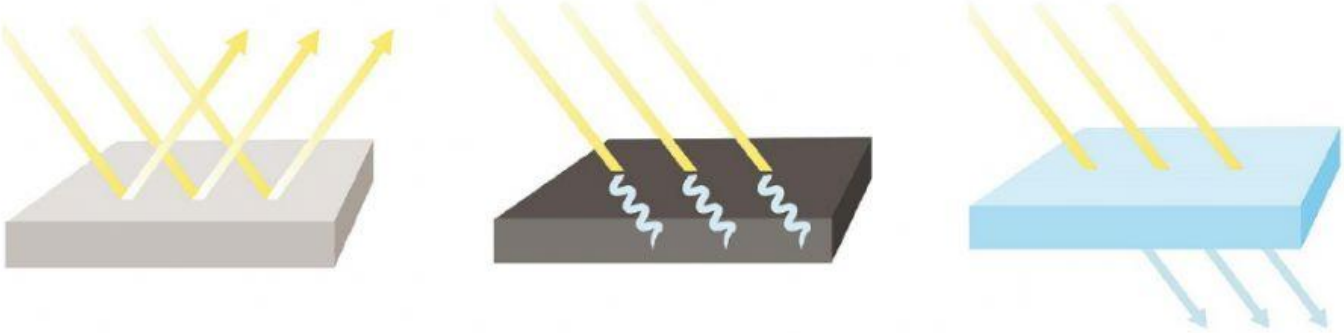

2. ما الذي يتسبب في حدوث الحيود ؟

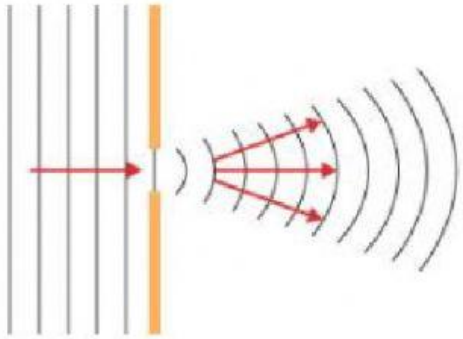

a. موجة تتحرك بمحاذاة حافة جسم .

b. موجة لا يمكنها الوصول إلى جسم .

c. موجة تتغير سرعتها .

d. موجة ترتد عن سطح ما.

3. ما هو قانون الانعكاس ؟

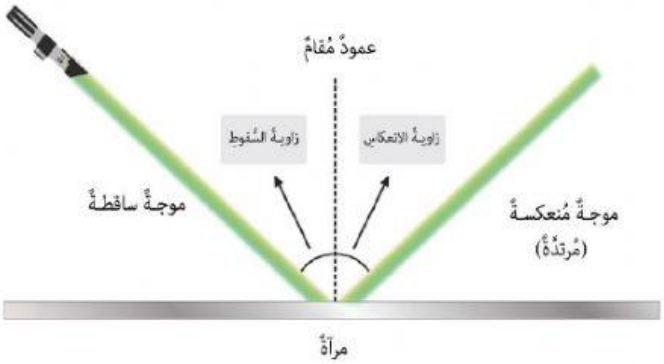

a. زاوية السقوط أكبر من زاوية الانعكاس .

b. زاوية السقوط أصغر من زاوية الانعكاس .

c. زاوية السقوط = زاوية الانعكاس