מעגל חשמלי

1. אלו **רכיבים במעגל חשמלי** מייצגים הסימנים המוסכמים הבאים?
היעזרו **במחסן מילים** :

אמפרמטר , וולטמטר , חוטים מוליכים , מנוע חשמלי ,

מקור מתח , מתג פתוח , מתג סגור , נגד , נורה , פעמון.

א.	**ב.** 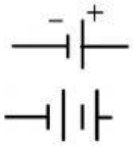	**ג.** 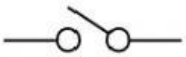	**ד.** 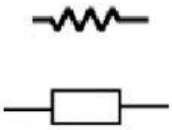	**ה.**
ו.	**ז.** 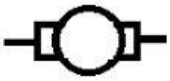	**ח.**	**ט.** 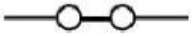	**י.**

2 . לפניכם מספר מעגלים חשמליים, באילו מהמעגלים יש קצר?

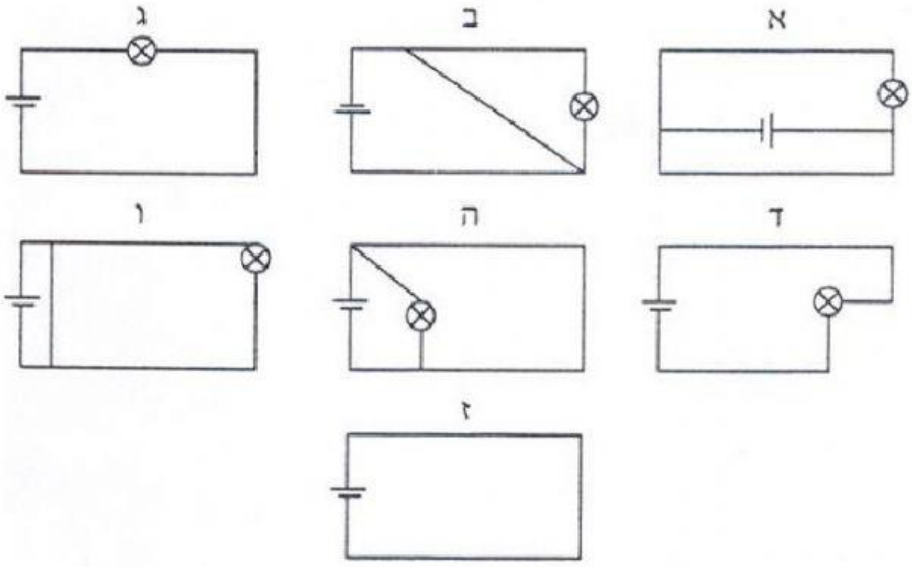

3. נתונים שרטוטים של מעגלים חשמליים המכילים סוללות ונורות.

עליכם לקבוע האם הנורות דולקות ואם לא.

א. הנורה דולקת / לא דולקת

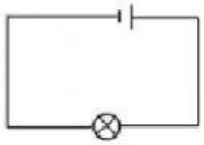

ב. הנורה דולקת/לא דולקת

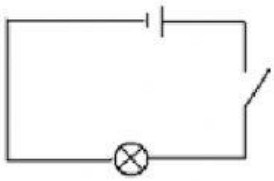

ג. כל הנורות דולקות/לא דולקות

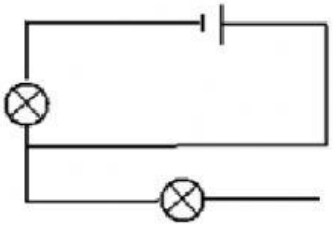

ד. כל הנורות דולקות/לא דולקות

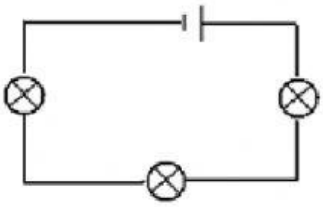

ה. כל הנורות דולקות/לא דולקות

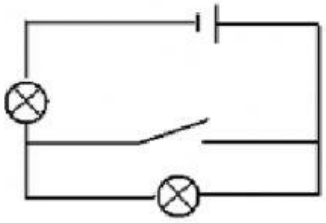

ו. כל הנורות דולקות/לא דולקות

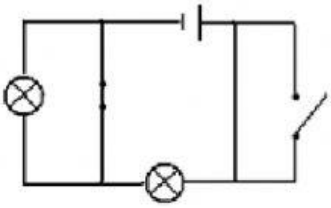

ז. כל הנורות דולקות/לא דולקות

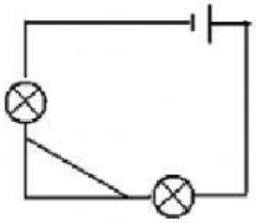
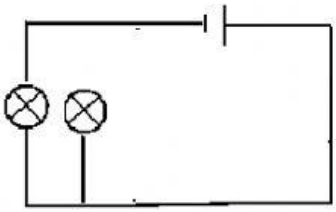
ח. כל הנורות דולקות/לא דולקות