נקודות על ישרים

1. במערכת הצירים משורטטים 2 ישרים:

$$y = -3x + 1$$

1- $y = 2x + 6$.

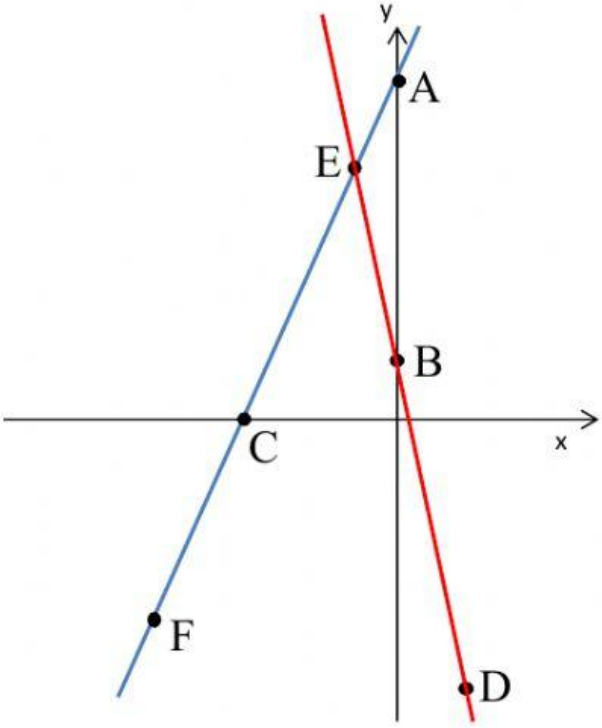

גרור את משוואה מתאימה לצבע שלה

האם ישר עולה או יורד?

איזה נקודות נמצאות על הישר?

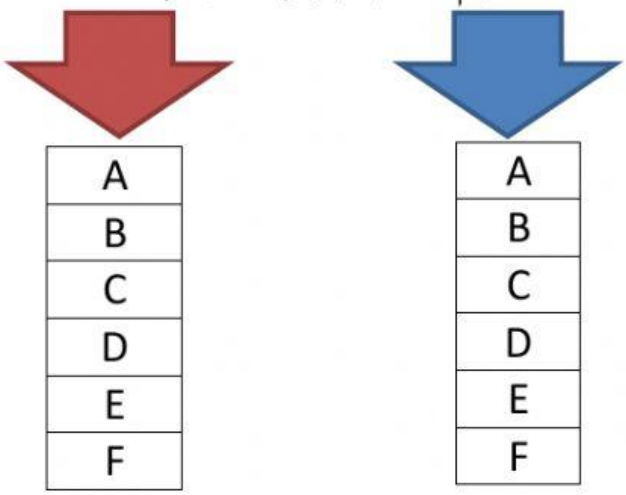

השלם את שיעורי הנקודות:

A (,) B (,) C (,)

D (, -5) E (-1 ,) F (-5 ,)

2. במערכת הצירים משורטטים 2 ישרים:

$$y = -\frac{1}{2}x + 4$$

ו- $y = 2x - 11$.

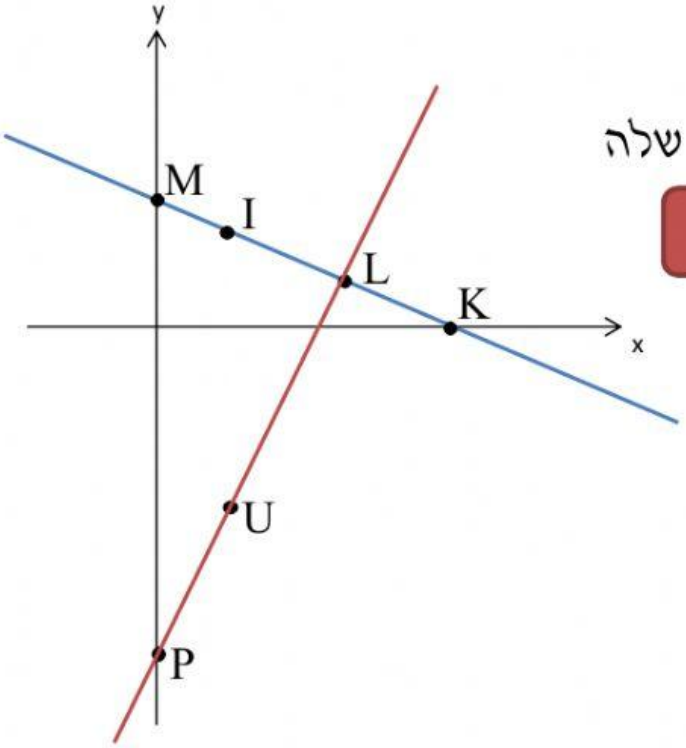

גרור את משוואה מתאימה לצבע שלה

האם ישר עולה או יורד?

איזה נקודות נמצאות על הישר?

M	M
I	I
L	L
K	K
P	P
U	U

השלם את שיעורי הנקודות:

M(,) K(,) I(2 ,)

P(,) L(, 1) U(2 ,)