Οι αριθμοί μέχρι το 50

Συμπλήρωσε τους αριθμούς μέχρι το 50 μέσα στον πίνακα.

1		3		5	6		8		10
11	12			15		17		19	20
21		23			26	27		29	30
31		33		35		37	38		40
41	42		44			47		49	50

Σημείωσε τις δεκάδες των αριθμών, όπως το παράδειγμα:

23 44 14 37 50 22 18 33

Τοποθέτησε, τώρα τους αριθμούς από τον μικρότερο στον μεγαλύτερο.

....<....<....<....<....<....<....<....<....

Βάζω το κατάλληλο σύμβολο (< , = , >) για να συγκρίνω τους αριθμούς.

18 25	36 32	48 50
50 20	18 18	13 31
38 35	32 23	36 39
42 49	16 26	
28 22	36 46	

Γράφω τον προηγούμενο και τον επόμενο.

	36			17	
	29			44	
	30			49	
	11			27	

Πόσες είναι οι Δεκάδες;
Πόσες οι μονάδες;
Γράψε το σύνολο.

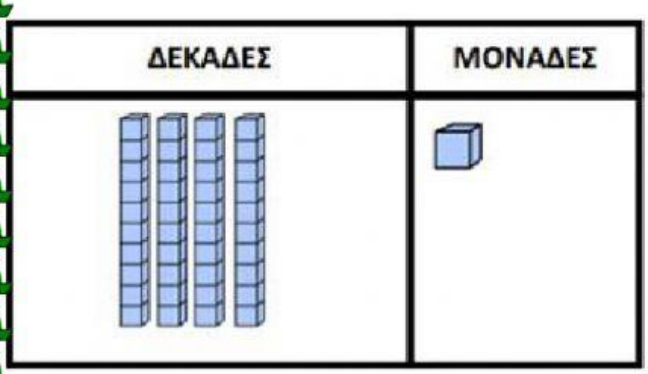

Δ ☐ Μ ☐ ➡ ☐

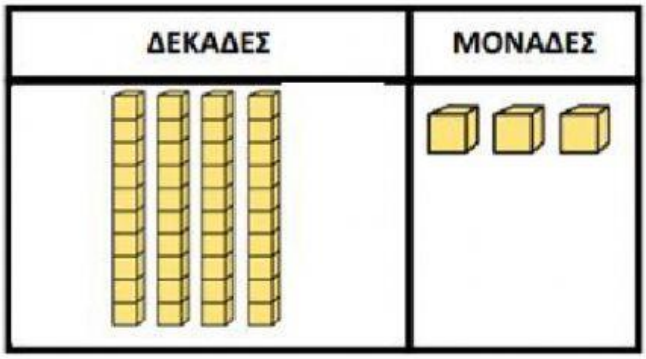

Δ ☐ Μ ☐ ➡ ☐

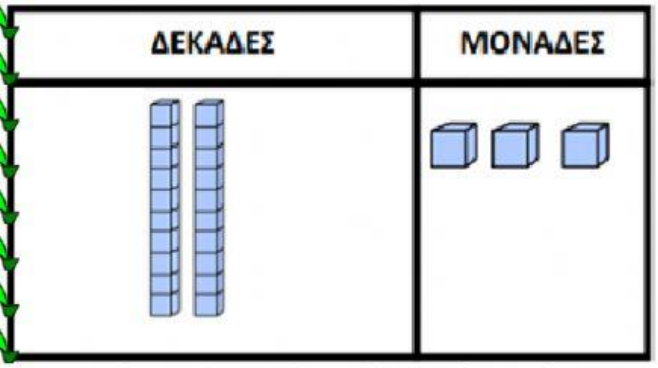

Δ ☐ Μ ☐ ➡ ☐

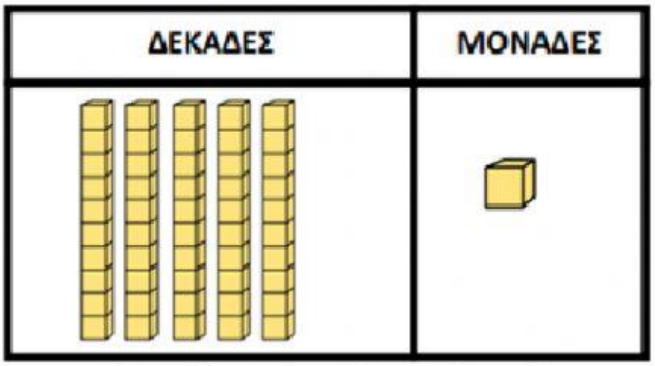

Δ ☐ Μ ☐ ➡ ☐

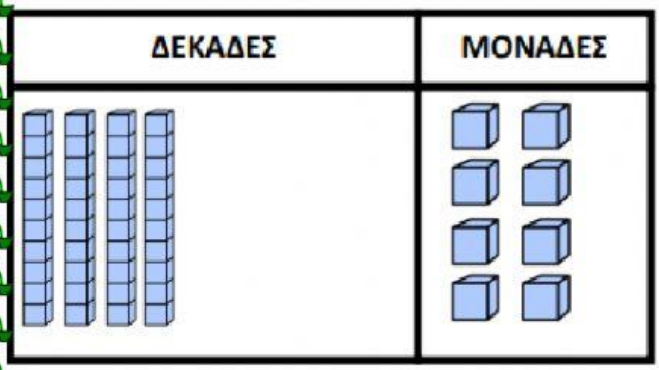

Δ ☐ Μ ☐ ➡ ☐

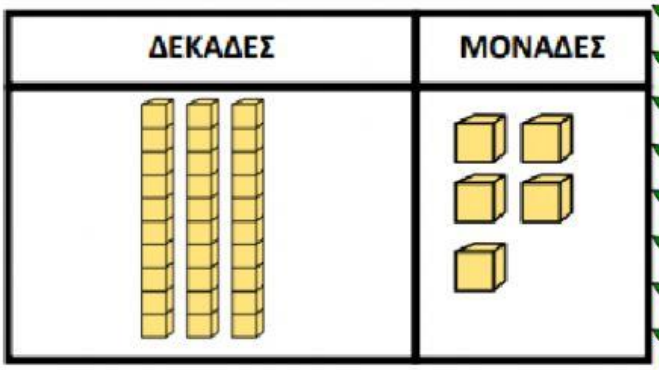

Δ ☐ Μ ☐ ➡ ☐