KEMAHIRAN ASAS MATEMATIK KSSR : 5

Nama : _____

1	Tulis dalam perkataan 81 080	27	Lukis jarum penunjukkan unuk jisim	33	$2 + 40 \div 8 =$
2	Tulis dalam perkataan "3.043"		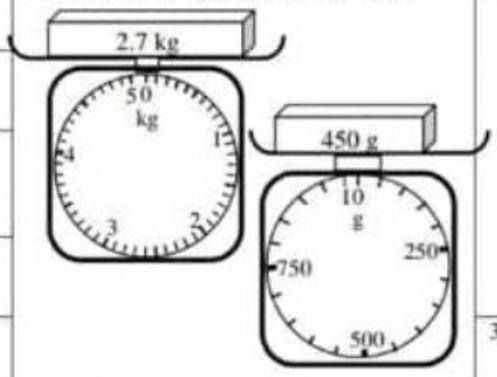		$10 - 3 \times 3 =$
3	Pecahan kawasan berlorek				$10 + 5 \times 3 =$
2M					
4	Tiga ratus ribu tujuh ratus dalam angka				$(39 + 1) \div (9 - 4)$
5	6.23 juta =			34	$607.2 \div 100 =$
6	Nilai tempat bagi 6 dalam 627 345 Nilai tempat bagi 6 dalam 4.096		Berapakah panjang , dalam cm, kayu itu 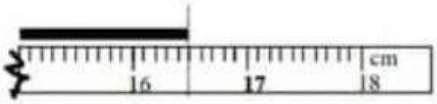	35	$19 + 1.9 + 2.48 =$
7	Nilai digit bagi 6 dalam 623 498 Nilai digit bagi 6 dalam 9.026	28	Berapakah panjang, dalam m, kayu itu 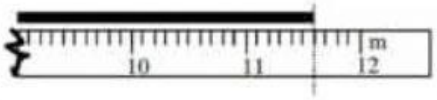	36	$19 - 1.9 + 2.48 =$
8	Bundarkan 328 296 kepada puluh ribu yang terdekat			37	$0.4 \div 8 =$
9	Bundarkan 3.571 kepada persepuluh terdekat			38	$\frac{5}{7} + \frac{4}{7} =$ =
10	RM43.75 kepada ringgit terdekat			39	$\frac{6}{7} - \frac{4}{7} =$
11	Nyatakan $7\frac{43}{1000}$ kepada perpuluhan			40	$\frac{1}{3} - \frac{1}{9} =$ =
12	Nyatakan 5.02 kepada nombor bercampur.	29	_____ml	41	$\frac{1}{3} \div \frac{1}{9} =$
13	Pecahan setara bagi $\frac{1}{3}$ =			42	$\frac{1}{4}$ daripada 16 biji guli ialah
14	Tukarkan $\frac{9}{7}$ kepada nombor bercampur =				$\frac{1}{4}$ daripada 160 biji guli ialah
15	Berapakah bilangan bucu bentuk 3D ini				$\frac{1}{4}$ daripada 16 biji guli ialah guli merah, bakinya guli biru. Bilangan guli biru ialah
	Berapakah sisi bentuk 2D ini 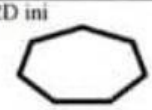		_____ℓ	43	80 % daripada 300 biji telur ialah