ورقة عمل

انشاءات هندسية ١

أحدد قاعدة وارتفاع المثلث في كل من الاشكال التالية :

القاعدة :

الارتفاع :

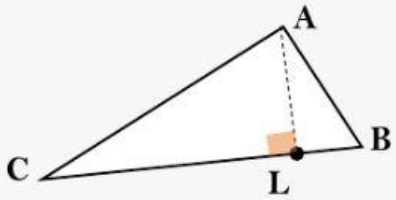

القاعدة :

الارتفاع :

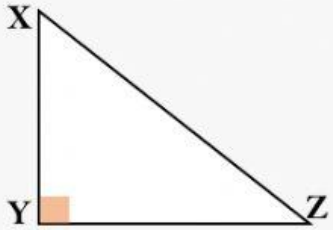

القاعدة :
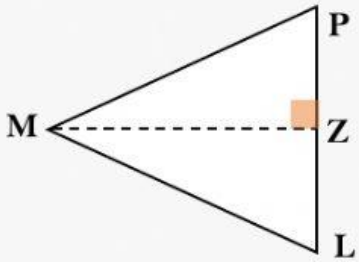
الارتفاع :