ضعي علامة (✓) أمام العبارة الصحيحة فقط
و اتركي الإجابة الخاطئة لا تضعي عندها أي إشارة :

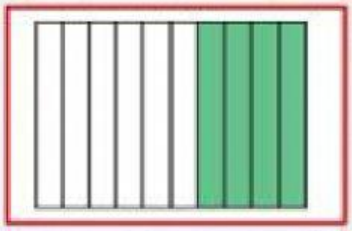

الجزء المظلل في الشكل هو $\frac{٤}{١٠}$ ( )

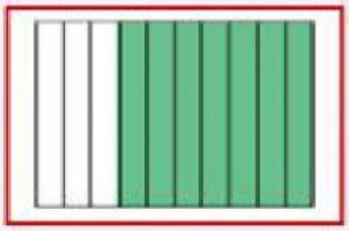

الجزء المظلل في الشكل هو ٠,٨ ( )

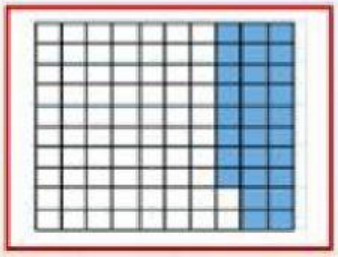

الجزء المظلل في الشكل هو ٠,٢٨ ( )

العدد ١٢ و ٨ أعشار يكتب بالصيغة القياسية: ١٢,٨٠ ( )

يكتب العدد ٦,٢٨ بالصيغة التحليلية: ٢ + ٨ ٠,٠ + ٠,٦ ( )

يكتب العدد ١٥,٤ بالصيغة التحليلية: ١٥ + ٠,٤ ( )

mstorah2020alzhrani