Vedruna Mollerussa

1. Escriu els nombres següents:

- 4CM + 1UM + 3C + 7D + 8U = _____
- 2DM + 6UM + 3C + 8D + 9U = _____
- 3CM + 7C + 6U = _____

2. Digues el valor dels nombres en negreta:

32**5**.120 = 5.000	1**4**6.809 =
876.402 = _____	259.2**3**2 = _____
784.41**2** =_____	858.**6**59 = _____

3. Realitza la següent multiplicació:

x	30	+	5	=	RESULTAT
20	_____	+	_____	=	_____
4	_____	+	_____	=	+ _____ = _____

Vedruna Mollerussa

4. Calcula el perímetre d'aquestes figures:





_____ _____

5. Relaciona cada any en el seu lloc corresponent de la recta numèrica.
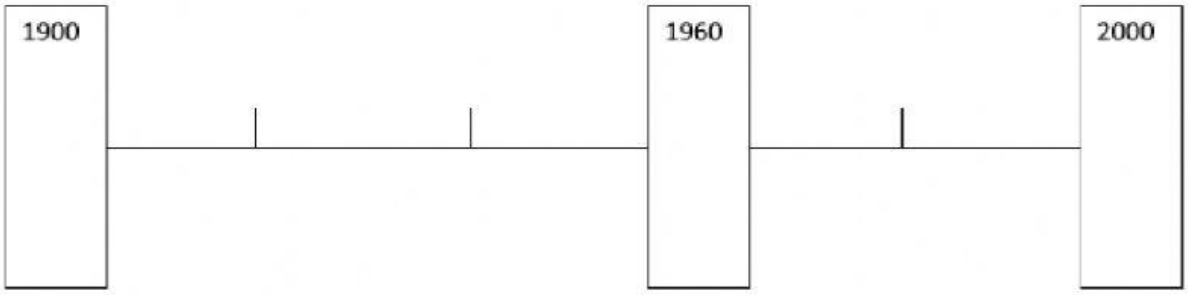
1920	1980	1940