Завдання 10 з 32

На якому з наведених рисунків зображено ескіз графіка функції $y = 4 - (x-1)^2$?

А	Б	В	Г	Д
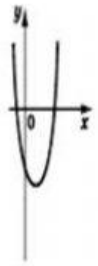	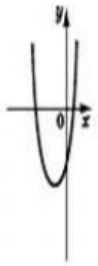		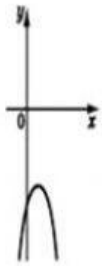	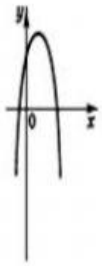

Завдання 25 з 36

На рисунку зображено ескіз графіка функції $y = ax^2 + bx + c$. Укажіть правильне твердження щодо коефіцієнтів a, b, c.

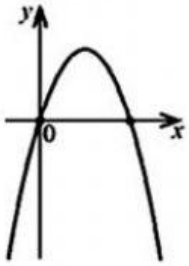

А	Б	В	Г	Д
$\begin{cases} a<0, \\ b<0, \\ c=0 \end{cases}$	$\begin{cases} a>0, \\ b<0, \\ c>0 \end{cases}$	$\begin{cases} a>0, \\ b>0, \\ c=0 \end{cases}$	$\begin{cases} a<0, \\ b>0, \\ c<0 \end{cases}$	$\begin{cases} a<0, \\ b>0, \\ c=0 \end{cases}$