REVISANDO O CONTEÚDO DE CIÊNCIAS

NOME

ATIVIDADE ON-LINE Prof: Adriana Lopes

1 - Complete a figura com o nome das partes da planta.

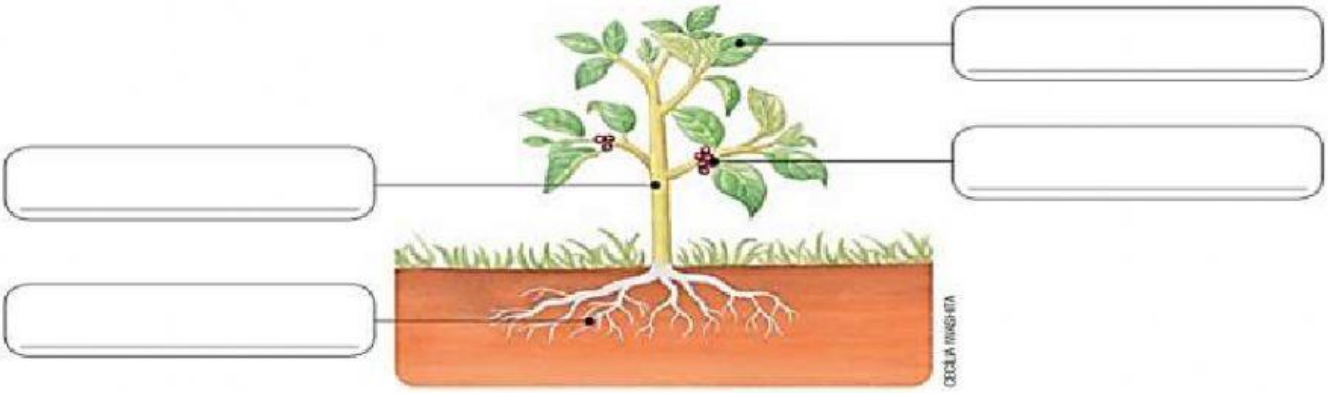

2 - Observe a figura. Quais dos alimentos do prato se originam de plantas? Marque a resposta certa.

( ) Todos os elementos do prato.

( ) A cenoura e o alface.

( ) A carne e o feijão.

( ) Todos os elementos menos a carne.

3 - Leia as frases a seguir. Preencha os quadros arrastando as frases que tornam o esquema correto.

Fazer atividades físicas

Lavar as mãos antes das refeições

Alimentar-se bem

Beber água da torneira

Escovar os dentes uma vez por dia

\+ \+

=

Hábitos saudáveis

4 - Observe as imagens a seguir. Assinale aquelas que mostram hábitos saudáveis.



5 - Observe as imagens e assinale as alternativas corretas.

- [ ] Os ambientes A e B são formados por seres vivos e componentes não vivos.
- [ ] O ambiente A é frio e o ambiente B é seco.
- [ ] Os seres vivos que aparecem no ambiente A são o cacto e as árvores.
- [ ] No ambiente B não aparecem objetos construídos pelo ser humano.

6 - Complete as frases, usando as palavras do quadro. Arraste a palavra que completa corretamente a frase.

navio	helicóptero	avião	carro

a) Se eu quero transportar pessoas e cargas por grandes distâncias, devo usar

o _____.

b) Se eu quero transportar cargas e pessoas pelos rios e mares, devo usar o

_____.

c) Se eu preciso de um transporte muito rápido de uma cidade para outra, em

uma operação de resgate eu uso o _____.

d) Se eu quero fazer um passeio com a família, eu uso o _____.

Encontre no desenho as situações em que ocorre o desperdício de água, assinalando-as com X .