KEMENTERIAN AGAMA REPUBLIK INDONESIA
KANTOR KEMENTERIAN AGAMA KABUPATEN REMBANG
MADRASAH IBTIDAIYAH NEGERI 1
PENILAIAN HARIAN TEMA 3
TAHUN PELAJARAN 2020 / 2021

Mata Pelajaran : Tematik Nama : ....

Kelas : 3B Nomor : ...

Pelajarilah materi pembelajaran berikut,!

Link materi : https://www.rifanfajrin.com/2019/10/rangkuman-materi-tema-3-kelas-3-benda.html

LATIHAN SOAL LKPD

1. PILIHAN GANDA

1. Makhluk hidup peka terhadap rangsang. Kepekaan makhluk hidup terhadap rangsang berbeda-beda. Perhatikan gambar tanaman berikut!. Bagaimana cara tanaman tersebut menanggapi rangsang?

A. Daun putri malu akan rontok daunnya jika disentuh.

B. Daun putri malu akan mengugurkan daunnya jika disentuh.

C. Daun putri malu akan menutup daunnya jika disentuh.

2. Makanan sangat berpengaruh terhadap pertumbuhan dan perkembangan manusia. Makanan yang kita makan harus selalu bersih dan menyehatkan. Berikut makanan yang banyak mengandung protein yaitu ....

A. Ikan, daging, susu, keju, kentang, dan telur

B. Ikan, daging, susu, keju, tahu, dan telur

C. Ikan, daging, susu, keju, roti, dan telur

3. Perhatikan gambar berikut!

Bahan makanan di atas banyak mengandung ….

A. karbohidrat

B. protein

C. vitamin

4. Perhatikan gambar berikut!



Berikut yang bukan ciri-ciri hewan di samping adalah ….

A. Berkembang biak dengan cara melahirkan

B. Bernafas dengan dengan ingsang

C. Bergerak dengan cara berenang menggunakan sirip

5. Tanaman sama dengan makhluk hidup lainnya yang mengalami pertumbuhan. Tanaman pun memiliki daur hidup dan cara yang berbeda dalam perkembangbiakan. Ada tanaman yang mengalami perkembangbiakan secara alami dan secara buatan. Berikut tanaman yang berkembang biak dengan tunas yaitu ...

A. pohon pisang, jambu, dan cocor bebek.

B. pohon pisang, bambu, dan kentang

C. pohon pisang, bambu, dan cocor bebek.

2. **MENJODOHKAN**

Perubahan Wujud

Berikut istilah perubahan wujud dengan artinya yang benar adalah ....

mencair	Perubahan wujud gas menjadi cair
menguap	Perubahan wujud padat menjadi cair
membeku	Perubahan wujud padat menjadi gas
mengembun	Perubahan wujud cair menjadi gas
menyublim	.Perubahan wujud cair menjadi padat
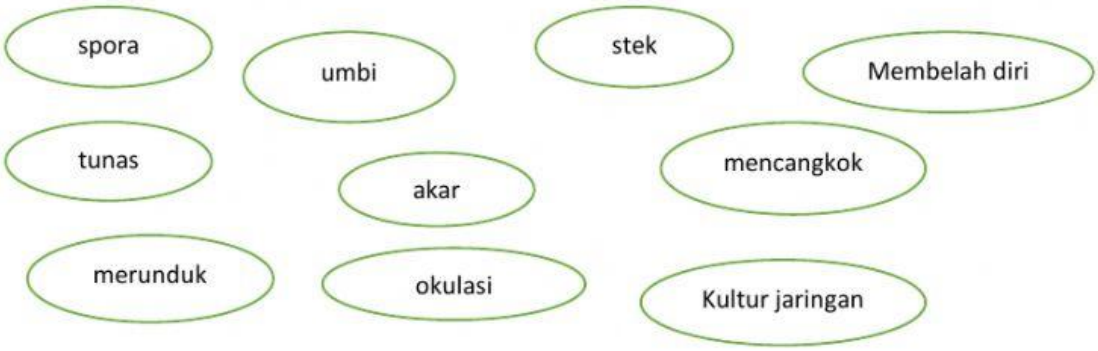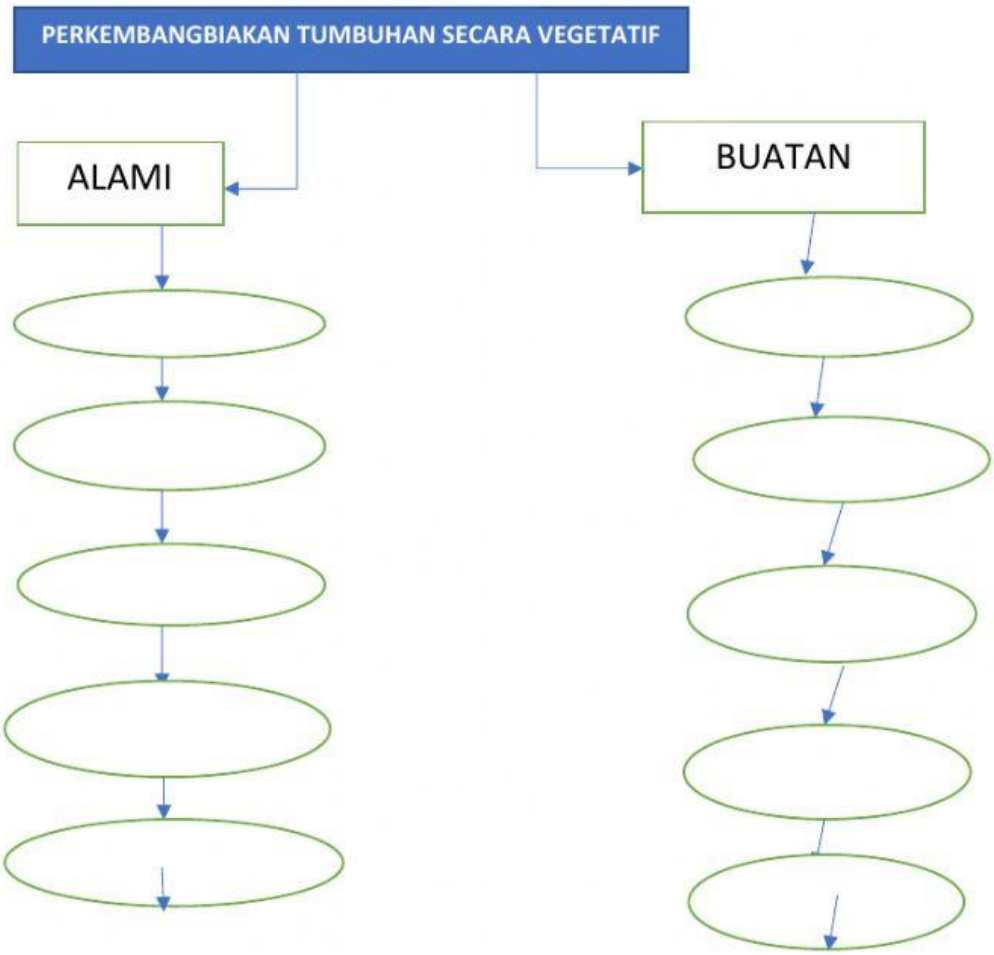
3. **DRAG N DROP**
   Kelompokkan alat perkembangbiakan berikut!