ورقة عمل الجهاز الدوري -اعداد الاستاذة :اسراء الدباغ

اسحب اسم التركيب الى مكانه الصحيح

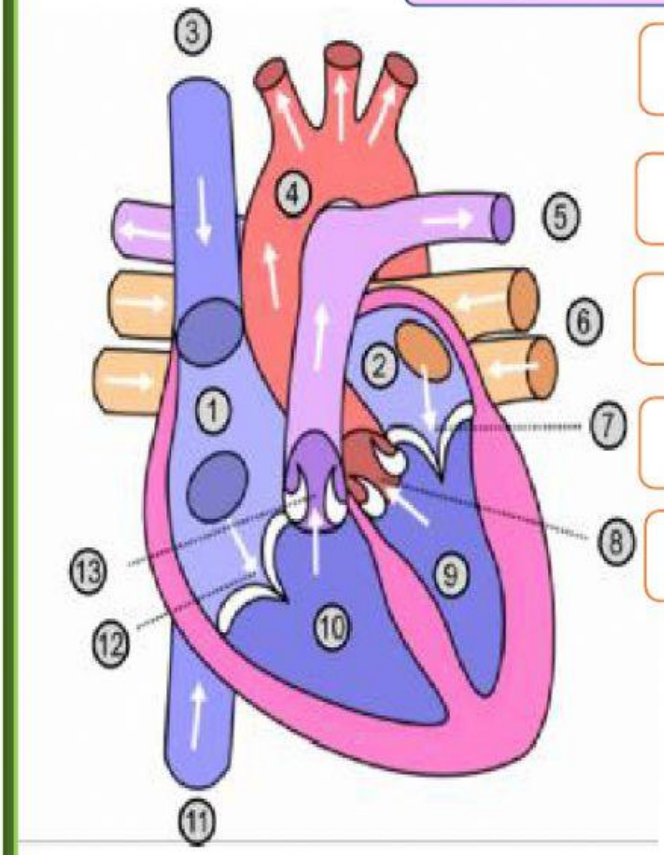

1	
2	
3	
4	
5	
6	
7	
8	
9	
10	
11	
12	
13	

الصمام ثنائي الشرفات

الاذين الايسر

البطين الايمن

الاذين الايمن

الوريد الاجوف االعلوي

الوريد الاجوف السفلي

الشريان الرئوي

الصمام الاورطي

الصمام الرئوي

الاوردة الرئوية

البطين الايسر

الصمام ثلاثي الشرفات

الشريان الاورطي

اكمل الجدول التالي بما يناسب

وجه المقارنة	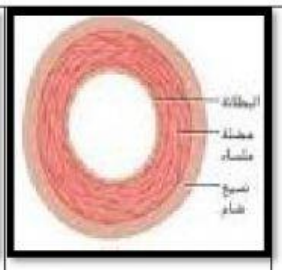		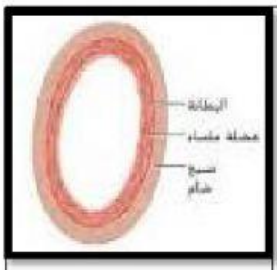
اسم الوعاء			
السمك			
الوظيفة			
نوع الدم فيه			

شريان	نقل الدم المؤكسج من القلب الى الجسم	اكثر سماكة
وريد	نقل الدم غير المؤكسج من الجسم الى القلب	اقل سماكة
شعيرة دموية	التبادل الغازي على مستوى الانسجة	سمك جدرانها خلية واحدة

مؤكسج عادة

غير مؤكسج