7. సమాన భాగాలు - సమాన సమూహాలు

Class:- IV
Subject:- Maths

Name :-

1. కింది చిత్రాలను చూడండి. సూచనల ఆధారంగా గ్రూపులుగా ఏర్పరచండి. భాగహార రూపమును **క్లిక్ చేసి గుర్తించండి.**

అ) 8 చొప్పున ఎన్ని గ్రూపులు ఏర్పడుతాయో తెలుపండి.

$24 \div 8 = 3$ $24 \div 8 = 4$ $24 \div 8 = 8$

ఆ) 2 చొప్పున ఎన్ని గ్రూపులు ఏర్పడుతాయి.



$16 \div 2 = 3$ $16 \div 2 = 4$ $16 \div 2 = 8$

ఇ) 6 చొప్పున ఎన్ని గ్రూపులు ఏర్పడుతాయో తెలుపండి.



$24 \div 6 = 3$ $24 \div 6 = 4$ $24 \div 6 = 8$

ఈ) 3 చొప్పున ఎన్ని ఎన్ని సమూహాలు ఏర్పడుతాయి?



$18 \div 3 = 6$ $18 \div 3 = 4$ $18 \div 3 = 8$