К о н т р о л е н т е с т

Тема:Геометрија и решавање проблеми VI одд **03.12.2020**

ученик:_____ ____ одд **I група**

Кој е точниот одговор

1. Точката М со координати (-3,-5) лежи во:

а) прв квадрант б) втор квадрант

в) трет квадрант г) четврт квадрант 4

2. Дадена е точка А(3,2).Нејзината точка симетрична во однос на у-оската има координати:

а) (-3,2) б) (-3,-2) в) (3,-2) г) (3,2) 4

3. Многуаголникот на дадениот цртеж има :

а) 9 страни и 10 темиња

б) 5 страни и 5 темиња

в) 10 страни и 10 темиња

г) 10 страни и 5 темиња 4

4. Триаголниците според видот на страните се делат на:

а) рамностран, разностран ,остроаголен б) правоаголен , тапоаголен и остроаголен

в) разностран, рамнокрак, правоаголен в) разностран ,рамностран и рамнокрак

4

Дополни

5. Четириаголникот што има само еден пар паралелни страни и нема прави агли се вика: _____ 6

6 Што претставува искршена линија?

_____

_____ 6

предметен наставник Милена Крстеска

7. Што претставува координатен почеток во Декартов координатен систем?

_____

_____ 6

Реши и прикажи ја постапката

8. Именувај ги многуаголниците

	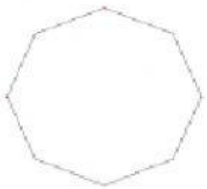		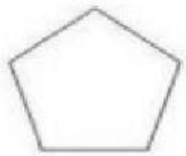

9.

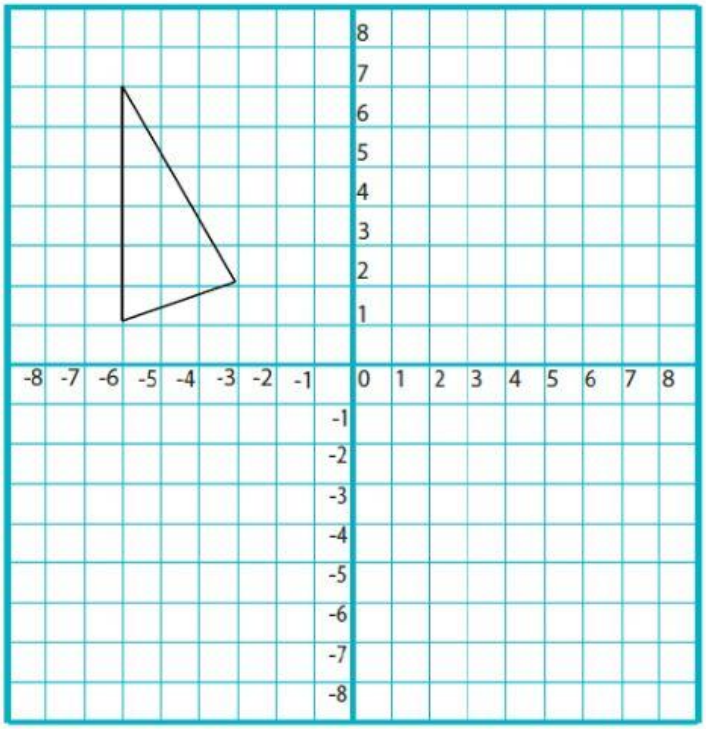

Во координатниот систем даден е триаголник.
а) Одреди ги неговите координати
б) Изврши осна симетрија во однос на x оската

б) (,)
(,)
(,)

15

предметен наставник Милена Крстеска

10.

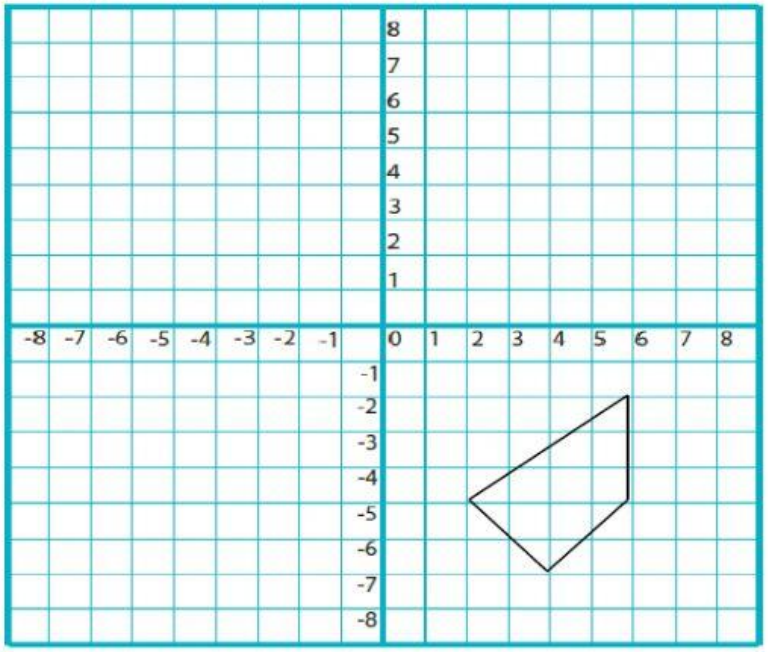

На дадениот четириаголник изврши транслација за 5 единици нагоре, а потоа внеси ги новите координати

A(,) B(,) C(,) D(,)

15

0-23*бода*	24-37*бода*	38 - 51 *бода*	52-65 *бода*	66-79*бода*
1	2	3	4	5

оценка **родител**

предметен наставник Милена Крстеска