Θυμάμαι...

Ο κυρ-Μανόλης , ο αγρότης, θέλει να σπείρει στον κήπο του λαχανικά. Για κακή του τύχη όμως, ένα άτακτο κουνελάκι του τα τρώει και δεν τα αφήνει να μεγαλώσουν. Έτσι ο κυρ-Μανόλης αποφάσισε να περιφράξει τον κήπο του. Πόσα μέτρα σύρμα πρέπει να αγοράσει ;

Τι έκανε λοιπόν ο αγρότης;

Πρώτα πήρε το .....
και ..... τον κήπο του.

Το σχήμα του κήπου ήταν ..... .

Η πλευρά **ΑΒ** ήταν **10** μέτρα.
Η πλευρά **ΒΓ** ήταν **7** μέτρα.
Η πλευρά **ΔΓ** ήταν ..... μέτρα.
Η πλευρά **ΔΑ** ήταν ..... μέτρα.



Για να βρει τώρα το γύρω γύρω (την περίμετρο δηλαδή) πρέπει να ..... τις πλευρές.

Γράφω την πράξη: ..... + ... + ... + ... = _____μέτρα

Η περίμετρος του κήπου είναι: ..... μέτρα.
Επομένως πόσα μέτρα σύρμα θα χρειαστεί;

Ο .....

Έφτασα γρήγορα για να σε βοηθήσω!
Ακολούθησέ με...

Υπολογίζω κι εγώ την περίμετρο των παρακάτω σχημάτων:

Α)



Περίμετρος του **Α** σχήματος:

.....



Β)

Περίμετρος του **Β** σχήματος:

.....

Γ)

Περίμετρος του **Γ** σχήματος:

.....