PAS BAHASA INDONESIA KELAS 3	Nilai	TTOT
Nama :_____ Kelas, No :_____ /_____ Hari, tanggal : _____		

Bahasa Indonesia

K.D 3.1 Menggali informasi tentang konsep perubahan wujud benda dalam kehidupan sehari-hari yang disajikan dalam bentuk lisan, tulis, visual, dan/atau eksplorasi lingkungan;

Bacaan

Winda Membuat Puding Coklat

Hari Minggu, ibu mengajak Winda memasak puding. Mereka mulai menyiapkan bahan – bahan yang diperlukan Winda menyiapkan susu, gula, bubuk coklat, dan bubuk agar – agar. Perlengkapan yang diperlukan antara lain panci, cetakan puding dan sendok kayu untuk mengaduk pudingnya.

Ibu mulai mengajari Winda membuat puding. Diawali mencampur susu dengan gula, bubuk coklat dan bubuk agar - agar. Bahan – bahan yang telah dicampurkan lalu dipanaskan sampai mendidih sambil terus diaduk. Setelah mendidih, puding dimasukkan ke dalam cetakan dan dibiarkan dingin.

Setelah dingin Winda kaget melihat puding yang ia buat menjadi keras. Ibu tersenyum dan menjelaskan bahwa puding itu sudah berubah wujud dari cair menjadi padat. Mendengar penjelasan ibu, Winda pun menganggukkan kepala tanda mengerti.

A. Jawablah pertanyaan di bawah ini dengan cara memasangkan kalimat di bawah yang sesuai !

1. Kapan ibu dan Winda membuat puding?
2. Apa saja bahan – bahan yang diperlukan untuk membuat puding?
3. Bagaimana cara Winda membuat puding?
4. Mengapa Winda merasa kaget ?
5. Bagaimana penjelasan ibu mengenai perubahan yang terjadi pada puding ?

B. Pilihlah huruf A, B, atau C pada jawaban yang paling tepat !

6. Benda-benda yang biasa terdapat di lingkungan kelas kita adalah … .
   A. meja, kursi, dan jam dinding
   B. cahaya, botol minum, dan air
   C. panas matahari, buku, dan tempat tidur

7.

   Kalimat yang sesuai dengan gambar di samping adalah . . .
   A. Kayu akan digunakan ayah untuk membuat meja.
   B. Meja dibuat ayah dengan bahan dasar kayu.
   C. Ayah membuat meja dari bahan kayu.

8. Jas hujan dibuat menggunakan bahan plastik karena salah satu sifat benda plastik adalah . . .
   A. tidak tembus air
   B. mudah dibentuk
   C. tembus pandang

9. Dalam kehidupan sehari – hari, kita menemukan berbagai macam benda dengan wujud yang berbeda.
   Di bawah ini yang termasuk benda padat adalah . . .
   A. kecap, minyak kelapa, dan meja
   B. batu, meja, dan kayu
   C. udara, angin, dan air

10. Amati benda – benda di bawah ini !

(1)

(2)

(3)

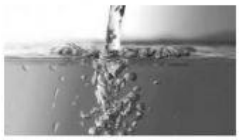
(4)

(5)

Benda - benda yang terbentuk secara alami ditunjukkan oleh gambar nomor … .
A. 1, 2, dan 4
B. 2, 3, dan 5
C. 3, 4, dan 5

11. Hasil pengamatan perubahan wujud benda yang sesuai dengan gambar di samping adalah … .

A. Air yang disimpan di kulkas akan membeku.
B. Kapur barus yang disimpan di lemari lama kelamaan akan habis.
C. Es batu yang dibiarkan di tempat terbuka lama kelamaan akan menjadi cair.

12. 

Gambar di samping menunjukkan air yang dimasak sampai mendidih. Hal ini menunjukkan proses terjadinya perubahan wujud dari cair menjadi gas yang disebut … .

A. mencair
B. menguap
C. mengembun

13. Gambar yang menunjukkan perubahan wujud benda dari padat ke cair adalah . . .

A.

B. 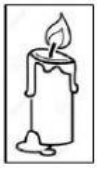

C.

B. Isilah pertanyaan di bawah ini sesuai dengan jawaban yang tepat !

14. Amati gambar di bawah ini !

Berdasarkan gambar di atas, yang **bukan termasuk benda** adalah

15. 

Proses terjadinya hujan

Air laut menguap setelah mengalami pemanasan dari matahari, kemudian membentuk _____ di langit.

16.

Ibu meletakkan kapur barus di bawah kulkas.
Lama kelamaan kapur barus tersebut akan _____

17.

Pada pagi hari yang dingin, Udin berjalan – jalan bersama kakak. Udin melihat ada titik – titik air di permukaan daun. Padahal, tadi malam tidak hujan.
Hal tersebut merupakan contoh perubahan wujud benda dari gas menjadi cair yang disebut _____

18. 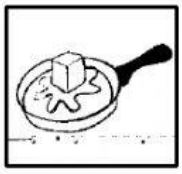

Ibu memanaskan mentega untuk membuat kue.
Hal ini menunjukkan proses perubahan wujud benda _____ menjadi _____

C. Uraian

19. Amati benda – benda yang terdapat pada tabel di bawah ini !

kecap	coklat batang	kapur barus
parfum	minyak kayu putih	mentega
roti	asap	sirup

Berdasarkan table di atas, manakah yang termasuk benda cair ?

_____ _____ _____ _____

20. Susunlah kalimat acak di bawah ini menjadi sebuah cerita yang runtut !

(1) Sinta membeli es krim bersama teman – temanya.

(2) Hari ini terasa sangat terik.

(3) Hal ini dinamakan dengan proses mencair, yaitu perubahan wujud benda padat menjadi cair.

(4) Beberapa saat kemudian es krim Sinta mulai mencair.