Educación Adventista #MásQueEnseñanza	Colegio Adventista de Concepción Matemática Prof.: *Lorena Tenorio*	**EVALUACIÓN** *2° Año Básico A*	Puntaje Prueba	
			Puntaje Obtenido	
Nombre:		***Fecha:***	***26***	***11***	***2020***
Objetivo de Aprendizaje: **OA1**: Contar números del 0 al 1 000 de 2 en 2, de 5 en 5, de 10 en 10 y de 100 en 100, hacia adelante y hacia atrás, empezando por cualquier número menor que 1 000. **OA3**: Comparar y ordenar números naturales del 0 al 100 de menor a mayor y viceversa, usando material concreto y monedas nacionales de manera manual y/o por medio de software educativo. **OA7:** Identificar las unidades y decenas en números naturales del 0 al 100, representando las cantidades de acuerdo a su valor posicional, con material concreto, pictórico y simbólico.		VALIDADO		
HABILIDADES: ***Contar – identificar – leer – ordenar – sumar – restar – comparar- comprender.***				

I) Escribe en los cuadrados el antecesor y sucesor de cada número (10 ptos)

	95	
	400	
	803	
	120	
	383	

II) Marca los números que son mayores (6 ptos.)

a) 565 y 325 **b) 987 y 845** **c) 999 y 989**

d) 871 y 873 **e) 1000 y 983** **f) 123 y 129**

Marca los números que son menores (6 ptos.)

a) 456 y 677 **b) 734 y 744** **c) 347 y 472**

d) 268 y 458 **e) 771 y 774** **f) 599 y 603**

III) Realiza las siguientes sumas (12 ptos.)

1) 810 + 143 = □□□

2) 623 + 55 = □□□

3) 226 + 751 = □□□

4) 710 + 124 = □□□

Realiza las siguientes restas (8 ptos.)

76 - 12 = □□

62 - 60 = □□

39 - 28 = □□

58 - 45 = □□

IV) Cuenta y anota el resultado (17 ptos.)

1 ¿Cuántos hay?



Respuesta: ☐ cubos.

2 ¿Cuántos hay?

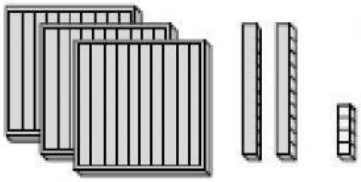

Respuesta: ☐ cubos.

3 ¿Cuántos lápices hay?

Respuesta: ☐ lápices.

4 ¿Cuántos hay?

Respuesta: ☐ lápices.

Sigue contando y completa.

→ 900 – 890 – 880

¿Cuántos cubos hay?



Hay ☐ cubos.

¿Cuántos hay en total?

500 y 60 y 4 hacen.

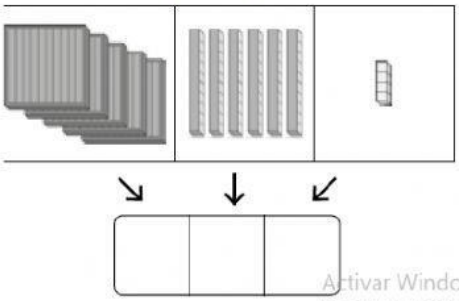

El total de galletas se representa:

☐ platos.

☐ galletas en cada plato.

☐ galletas en total.

Activar Windov
Ve a Configuración

V) Resuelve los siguientes problemas matemáticos y marca si corresponde: si es una suma o una resta (4 ptos.)

a) Tenía 19 de lápices. Perdí 6. ¿Cuántos lápices quedan?

Frase numérica ☐ Respuesta: ☐ lápices

b) Rafael comió 8 uvas. Su hermana comió 11. ¿Cuántas uvas comieron en total?

Frase numérica: ☐ Respuesta: ☐ uvas