Soalan 19 dan 20:
Pilihan jawapan berkaitan ragam pergerakan dalam tarian inang yang betul berdasarkan gambar.

A Ragam C
B Ragam L
C Ragam X
D Ragam Sudi

19.



20.



21. Mana antara pernyataan berikut yang menerangkan berkenaan dengan orientasi seksual homoseksual?
    A Individu yang tertarik dari segi seksual terhadap kedua-dua jantina
    B Individu yang tertarik dari segi seksual kepada individu yang sama jantina dengannya
    C Individu yang tertarik dari segi seksual kepada individu yang berlainan jantina dengannya
    D Individu yang tidak tertarik kepada kedua-dua jantina

22. Nyatakan kesalahan yang dilakukan oleh peserta lumba jalan kaki berdasarkan gambar papan bet di bawah.

A Kesalahan membengkok lutut
B Pembatalan penyertaan
C Kesalahan menghalang peserta lain
D Kesalahan kehilangan sentuhan dengan tanah

Soalan 23 hingga 25:
Nyatakan gaya lompat jauh berdasarkan gambar di bawah.

A Gaya terbang
B Gaya kayuh
C Gaya layar
D Gaya gantung

23.

24.



25.

Soalan 26 hingga 28:
Nyatakan pegangan lembing berdasarkan gambar di bawah.

A Gaya Fork
B Gaya Amerika
C Gaya Jabat Tangan
D Gaya Finnish

26.



27.

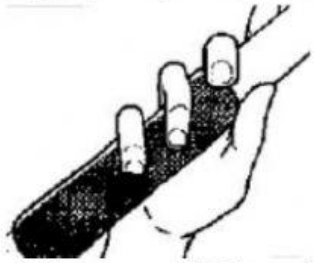
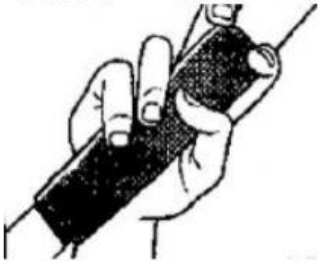
28.