Hari: _____ Tarikh: _____

Air berubah menjadi ais apabila air terlalu sejuk. Bagaimanakah cara untuk membuat ais? Susun gambar mengikut urutan yang betul. Tuliskan nombor 1, 2, 3 atau 4 di dalam setiap bulatan. KBAT







Standard Pembelajaran:	Standard Prestasi:
SA 4.1.2 Memerihalkan proses perubahan keadaan air: i) daripada air kepada ais dan sebaliknya ii) daripada air kepada wap air dan sebaliknya	SA 6 TP ☐1 ☐2 ☐3

Tandatangan

Guru: _____ Tarikh: _____ Ibu Bapa: _____ Tarikh: _____