الاسم

الصف

المعلمة ايمان الحارثي

علاقات الزوايا والمستقيمات

طالبتي العزيزة استخدمي المعلومات الواردة في صفحات هذا الدرس في كتابك كمصدر لحل الاسئلة التالية

اسحبي المفردات التالية وضعيها في الفراغ المناسب لها على اليمين

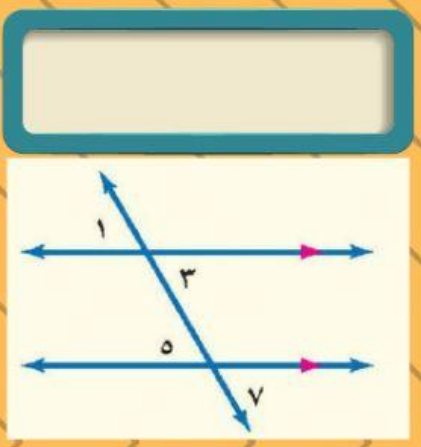

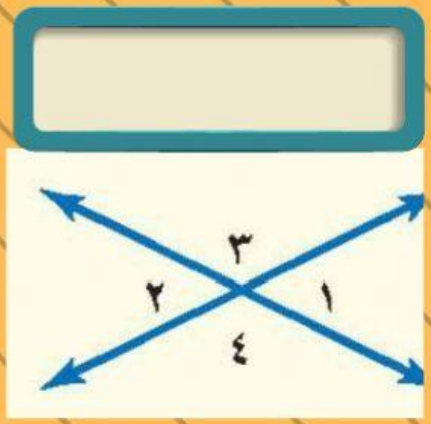

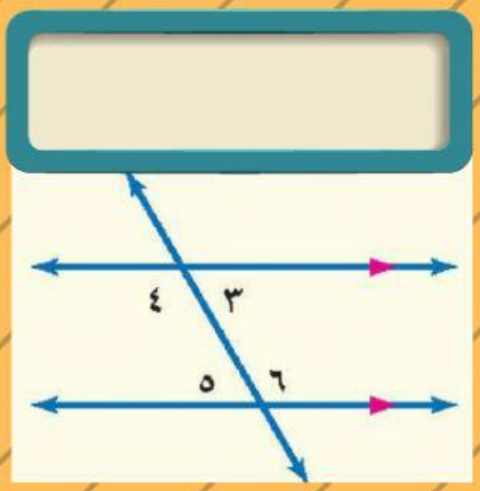

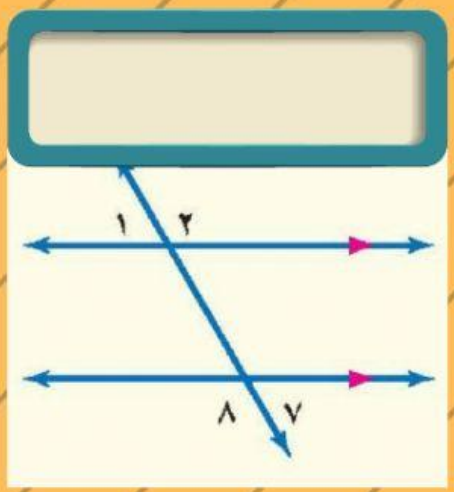

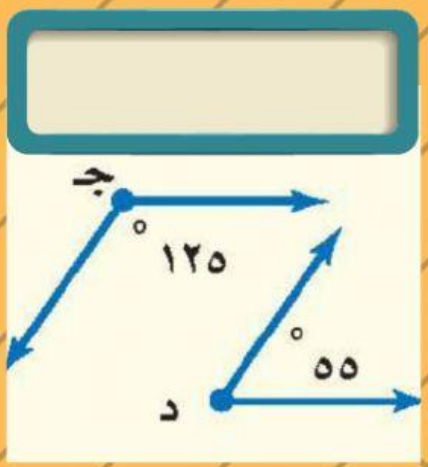

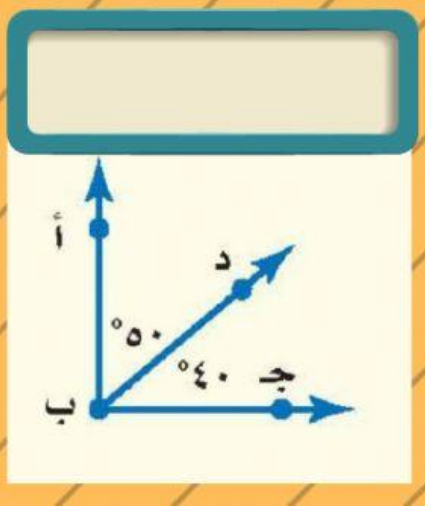

زوايتان متكاملتان

زاويتان متبادلتان خارجياً

زاويتان متناظرتان

زاويتان متبادلتان داخلياً

مستقيمان متعامدان

زاويتان متتامتان

زاويتان متقابلتان بالرأس