Όνομα: _____

1. **Επίλεξε τη σωστή απάντηση πατώντας πάνω ή κυκλώνοντάς**

Ο αριθμός δύο χιλιάδες επτά είναι

2.700 2.007 2.070 2.087

Ποιος αριθμός είναι μεγαλύτερος κατά 200 από το 2.500

2.800 2.900 2.600 2.700

2. Γράψε τους αριθμούς με αριθμητικό σύμβολο:

Δύο χιλιάδες οκτακόσια εβδομήντα τέσσερα .....

Τρεις χιλιάδες δεκαεφτά	.....
Τρεις χιλιάδες πεντακόσια έξι	.....
Τρεις χιλιάδες εξήντα τρία	.....

Γράφω ποιον αριθμό δείχνει ο άβακας στα κουτάκια.

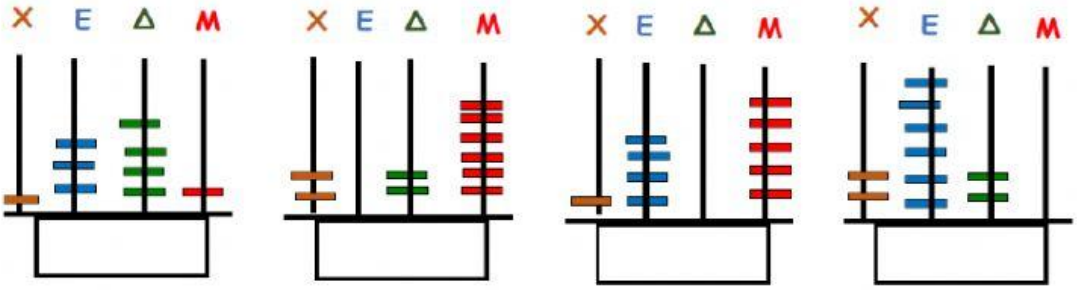

Αναλύω τον κάθε αριθμό σε άθροισμα, όπως το παράδειγμα.

2.469 = 2.000 + 400 + 60 + 9

1.921 = _____

2.005 = _____

1.800 = _____

2.226 = _____



8. Γράφω τον προηγούμενο και τον επόμενο αριθμό σε καθέναν από τους παρακάτω αριθμούς.

_____ 1.600 _____	_____ 1.478 _____	_____ 2.500 _____
_____ 2.900 _____	_____ 1.679 _____	_____ 1.990 _____

☐ **Βρίσκω τον μεγαλύτερο και τον μικρότερο αριθμό χρησιμοποιώντας τα παρακάτω ψηφία.**

Μικρότερος αριθμός: _____

1 **5** **8** **2**

Μεγαλύτερος αριθμός: _____

Βρίσκω τον αριθμό που προκύπτει από κάθε άθροισμα.

2.000 + 100 + 5 = **2.105**

1.000 + 500 + 90 + 4 = _____

2.000 + 20 + 3 = _____

1.000 + 700 + 6 = _____

2.000 + 300 + 50 = _____



Να βάλεις το σωστό σύμβολο ανισότητας ή ισότητας

1.890..... 1.980 2.003.....2.030 2.600.....2.060

2.750..... 2.000+700+50 1.785.....1.755 2.901.....2.900

Βρίσκω το μήκος κάθε ράβδου με τον χάρακα που μου δίνεται. Προσέχω πολύ τον χάρακα!!! Γράφω και σε εκατοστά και σε χιλιοστά!!!

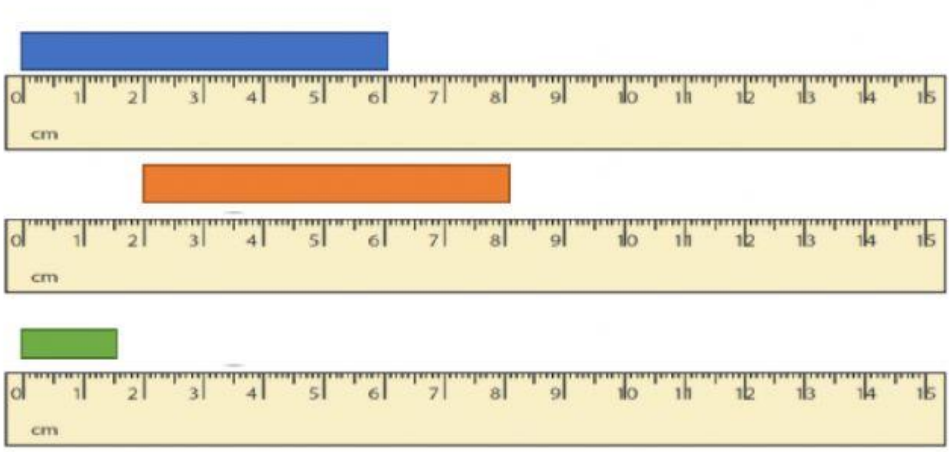

_____ εκατοστά

_____ εκατοστά

_____ χιλιοστά

..... εκατοστά