1er trimestre, música

1-Dictat rítmic



2-Dictat melòdic



3-Calcula i contesta quantes pulsacions sumen:



4-Equivalències rítmiques:

1. 1 blanca i 2 negres és igual a:
2. 3 negres i 2 corxeres és igual a:
3. 4 corxeres i 4 semicorxeres és igual a:
4. 1 silenci de blanca i 1 blanca és igual a:
5. 8 semicorxeres i 3 negres és igual a:

5-Escriu les notes d'aquesta cançó, saps quina cançó és? ⟶