ورقة عمل البرهان الاحداثي

اسم الطالبة :

صلي بين العمودين :

A	B
على الشكل المجاور : الاحداثيات النقطة Y المجهولة هي 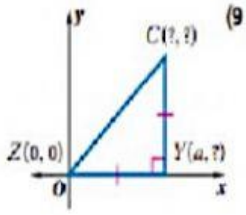	(2a , 0)
احداثيات النقطة T 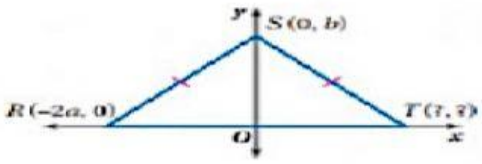	(a , a)
على الشكل المجاور : احداثيات النقطة C المجهولة هي : 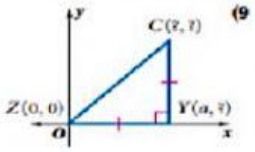	(a , 0)

المعلمة : مريم الظاهري