**LATIHAN MATEMATIK : TOPIK NISBAH : TAHUN 5**
**DISEDIAKAN OLEH : PN. NURUL FARHANA BT. ABDULLAH ( SK LANGKAWI )**

1. Jadual menunjukkan bilangan guli mengikut warna .

| **Warna** | **Merah** | **Biru** | **Kuning** |
|---|---|---|---|
| **Bilangan guli** |  |  | 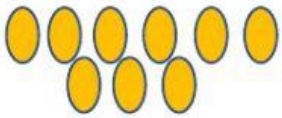 |

*(a)* Nyatakan **nisbah** bilangan guli biru kepada bilangan guli berwarna kuning.

Jawapan :

*(b)* Nyatakan **nisbah** bilangan guli merah kepada bilangan guli biru .

Jawapan :

*(c)* Nyatakan **nisbah** bilangan guli kuning kepada semua guli.

Jawapan :

2. Rajah menunjukkan bilangan epal dan mangga di dalam sebuah kotak.



*(a)* Tulis **nisbah** bilangan epal kepada bilangan mangga.

Jawapan :

*(b)* Rosnah memberikan 3 biji mangga itu kepada adiknya.
Apakah **nisbah** bilangan mangga yang tinggal kepada bilangan epal?

Jawapan :